Kurikulum Merdeka

BAHAN AJAR
PERKALIAN BILANGAN CACAH

Untuk SD/MI Kelas III

Disusun Oleh: Arianti Chandra

LIVEWORKSHEETS

CAPAIAN PEMBELAJARAN

Peserta didik dapat melakukan operasi perkalian dan pembagian bilangan cacah sampai 100 menggunakan benda-benda konkret, gambar, dan simbol matematika.

TUJUAN PEMBELAJARAN

1. Peserta didik dapat menjelaskan konsep perkalian sebagai penjumlahan berulang dengan benar.
2. Peserta didik mampu menyelesaikan soal cerita sederhana yang berkaitan dengan perkalian bilangan cacah dengan hasil sampai 100 secara mandiri.

LIVEWORKSHEETS

Yuk nonton!

Kita akan belajar apaya hari ini?

LIVEWORKSHEETS

Ayo Mengamati!

Coba perhatikan gambar berikut!



Pada gambar ditunjukkan ada 3 kotak pensil. Setiap kotak berisi 3 buah pensil. Jumlah seluruhnya adalah 3 + 3 + 3 = 9 pensil.

Kita coba gambar yang lain!



Pada gambar ditunjukkan ada 2 kotak bunga. Setiap kotak berisi 5 tangkai bunga. Jumlah seluruhnya adalah 5 + 5 = 10 tangkai.

LIVEWORKSHEETS

Ayo Bercerita!

Hari ini hari Minggu.
Setelah membantu ibu dan ayah,
si kembar Davin dan Devon bermain bersama.
Mereka bermain kelereng.

Davin mempunyai 3 kelereng, dan Devon juga mempunyai 3 kelereng. Jika digabungkan berapa jumlah kelereng semuanya?

LIVEWORKSHEETS

Ayo Mencoba!

Kelereng Davin

3

Kelereng Devon

3

Dapat ditulis:

$2 \times 3 = 6$

3	3

↓ Jumlah Kotak

↓ Jumlah setelah digabungkan

↓ Isi masing masing kotak

Jadi... $2 \times 3 = 3 + 3$ ⟶ 6

LIVEWORKSHEETS

Ingat ya!

Jumlah kelereng Davin Dan Devon ada 6.

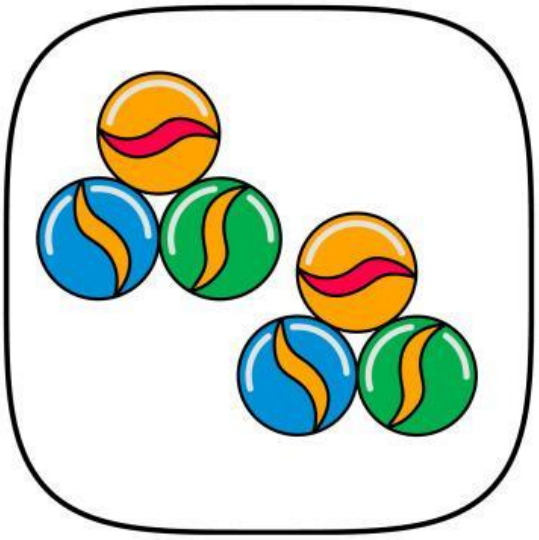

Jadi, Perkalian adalah operasi matematika dasar yang merupakan penjumlahan berulang dari suatu bilangan sebanyak bilangan pengalinya, atau bisa juga diartikan sebagai melipatgandakan suatu bilangan.

Simbol Perkalian

LIVEWORKSHEETS

Yuk mencoba!

Petunjuk!

Hubungkan Operasi perkalian dengan hasil yang benar.

5 x 3 •	• 24
6 x 4 •	• 9
3 x 4 •	• 14
2 x 7 •	• 15
9 x 1 •	• 12

LIVEWORKSHEETS

Yuk mencoba!

Petunjuk!

Hitunglah dengan benar!

Hari minggu pagi, Ibu Devi pergi kepasar. Ibu Devi ingin membeli buah apel. Setiap keranjang apel berisikan 5 buah apel. Kemudian Ibu Devi membeli sebanyak 4 keranjang. Berapakah jumlah apel yang dibeli Ibu Devi?

Yuk, bantu Ibu Devi!

LIVEWORKSHEETS

Yuk mencoba!

Petunjuk!

Hitunglah dengan benar!

LIVEWORKSHEETS

Yuk mencoba!

Petunjuk!

Tentukan bilangan yang tepat untuk soal berikut!





..... **X** .....

Berapakah jumlah anak ayam?

.....

LIVEWORKSHEETS