LKPD

MATEMATIKA KELAS 6 SD

Sistem Berpetak
Menentukan Lokasi Melalui Grafik6

Nama :

Kelas :

DI SUSUN OLEH :
NAJWA ROSYIDA 23129352

LIVEWORKSHEETS

Nama Angota Kelompok :

Menentukan Lokasi

Tentukan lokasi dari setiap gambar di bawah ini!

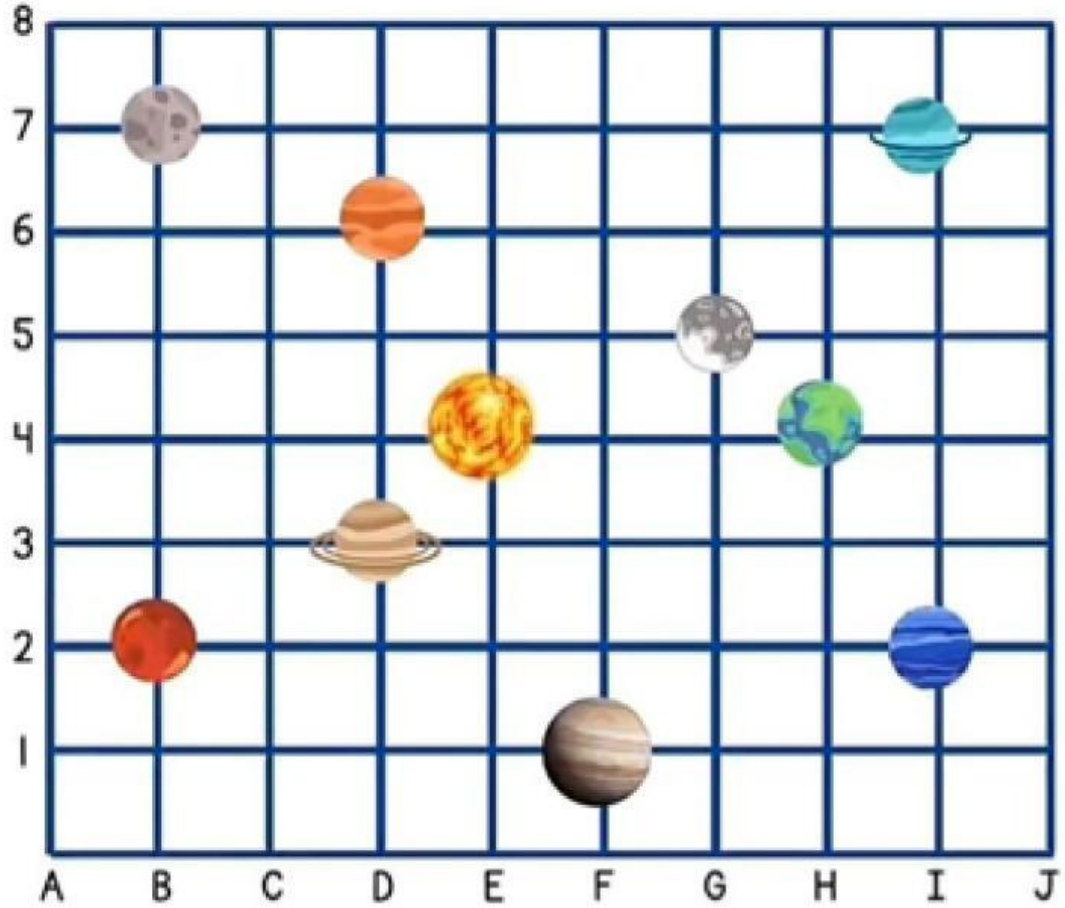

(_,_)

(_,_)

(_,_)

(_,_)

(_,_)

(_,_)

(_,_)

(_,_)

(_,_)

(_,_)

LIVEWORKSHEETS

Menentukan Lokasi

Tentukan/tuliskan lokasi titik A, B, dan C pada bidang berpetak berikut ini!

- Titik A (D,4)
- Titik B (F,6)
- Titik C (H,3)

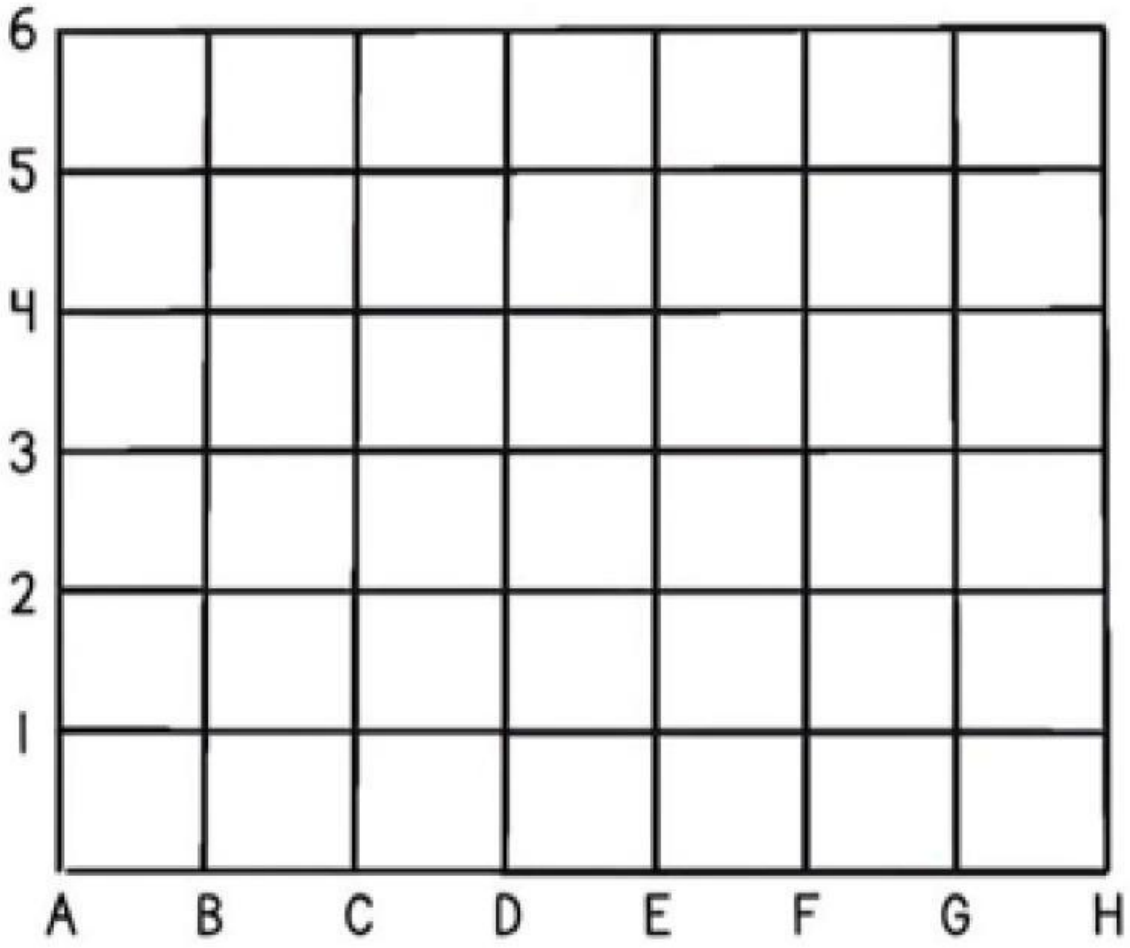

LIVEWORKSHEETS

MENENTUKAN LOKASI

Tentukan/tuliskan lokasi titik A, B, dan C pada bidang berpetak berikut ini!

- Titik A (D,4)
- Titik B (F,6)
- Titik C (H,3)

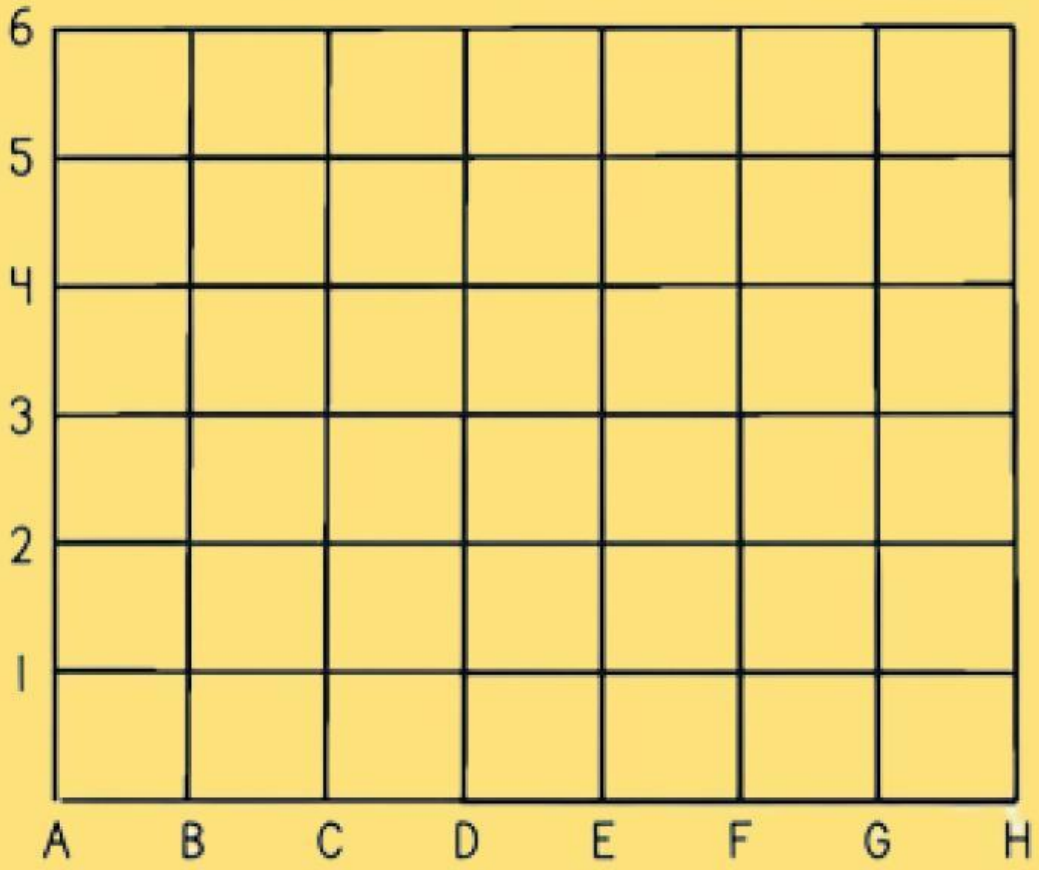

LIVEWORKSHEETS

1

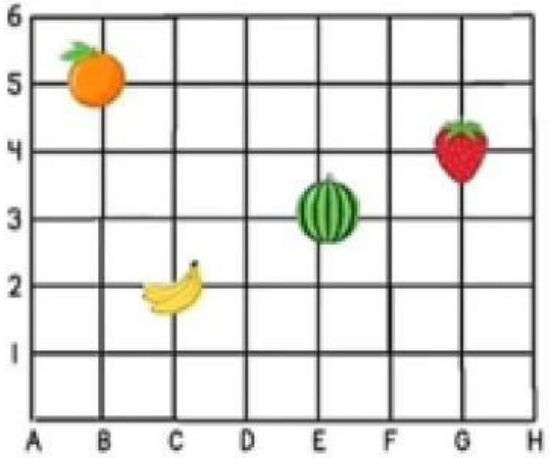

Lokasi buah jeruk (___ , ___)

Lokasi buah pisang (___ , ___)

Lokasi buah semangka (___ , ___)

Lokasi buah stoberi (___ , ___)

2

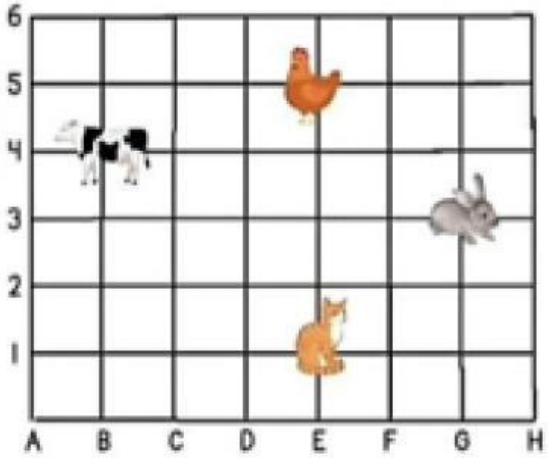

Hewan yang terletak pada (B,4) adalah ...

Hewan yang terletak pada (E,1) adalah ...

Hewan yang terletak pada (G,3) adalah ...

Hewan yang terletak pada (E,5) adalah ...

3

Tentukan/tuliskan lokasi titik G, H, dan I pada bidang berpetak berikut ini!

- Titik G (B,2)
- Titik H (F,6)
- Titik I (G,3)

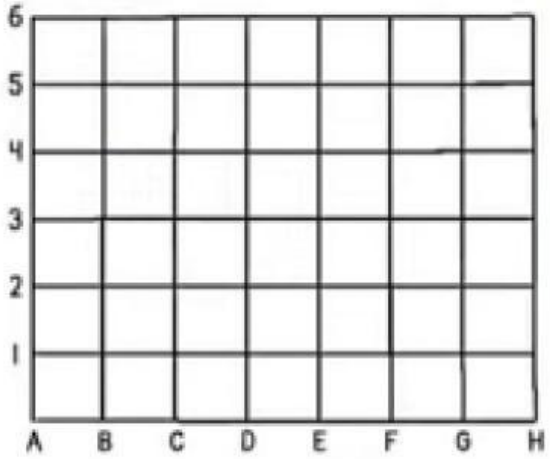

LIVEWORKSHEETS