BÀI 10: ĐỒ THỊ QUÃNG ĐƯỜNG- THỜI GIAN

Hình bên dưới biểu diễn đồ thị quãng đường – thời gian của một xe buýt xuất phát từ trạm A, chạy theo tuyến cố định đến trạm B, cách A 80 km.

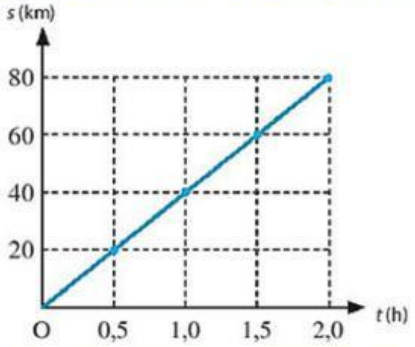

a)Quãng đường đi được của xe buýt sau 1 h kể từ lúc xuất phát là: _____km

b) Thời gian xe buýt đi từ trạm A đến trạm B là:_____h

Tốc độ của xe buýt: _____km/h

Hình dưới đây biểu diễn đồ thị quãng đường – thời gian chuyển động của một con mèo.

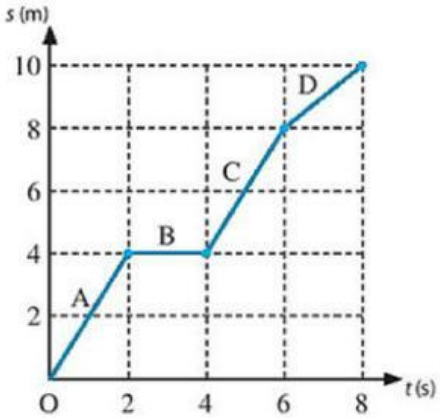

Sau 8 s kể từ lúc bắt đầu chuyển động, con mèo đi được quãng đường là _____

Tốc độ của con mèo trong từng giai đoạn:

(A)_____m/s

(B)_____m/s

(C)_____m/s

(D) _____m/s

Hình dưới đây biểu diễn đồ thị quãng đường – thời gian của một ô tô trên đường phố vào giờ cao điểm trong hành trình dài 4 phút.

Giai đoạn A, ô tô_____

Giai đoạn B, ô tô_____

Giai đoạn C, ô tô_____

Thời gian ô tô dừng lại là: _____min

Tốc độ ô tô giai đoạn A là: _____m/min

Tốc độ ô tô giai đoạn B là: _____m/min

Tốc độ ô tô giai đoạn C là: _____m/min

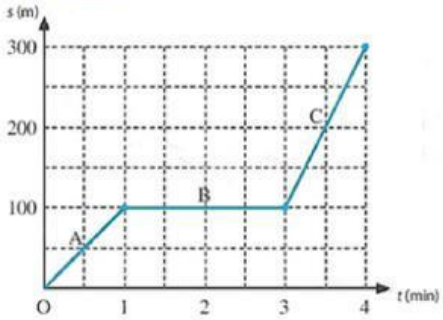

LIVEWORKSHEETS