MATEMÁTICAS 4º

Prueba de control Unidad 4

Nombre:_____Fecha:_____Nº:_____

1. ESCRIBE el nombre de las PARTES DE UN ÁNGULO.

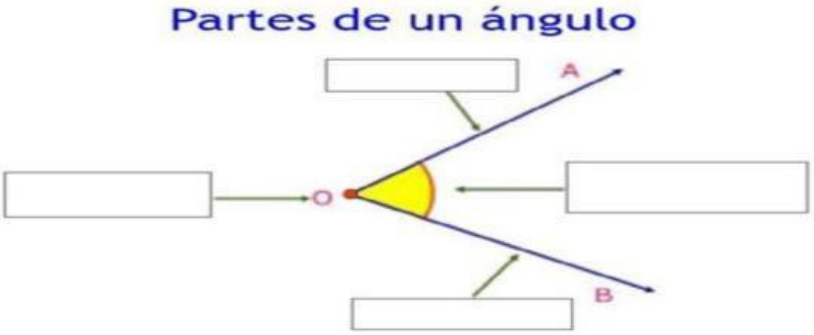

2. COMPLETA:

agudos	llanos	obtusos	rectos

a) Los ángulos _____ miden 90°.

b) Los ángulos _____ miden menos de 90°.

c) Los ángulos _____ miden más de 90°.

d) Los ángulos _____ miden 180°.

3. CLASIFICA estos ÁNGULOS según su medida.

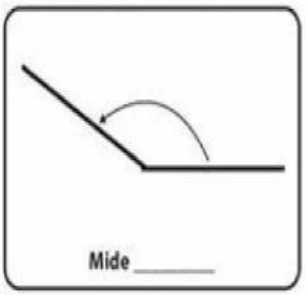

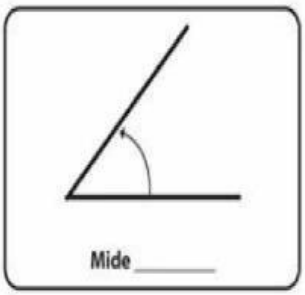

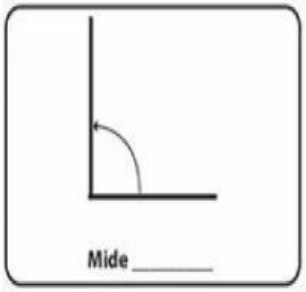

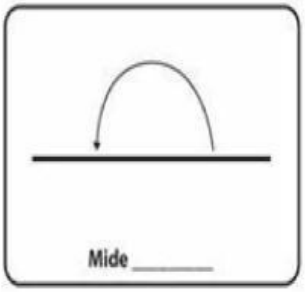

_____ _____ _____ _____

LIVEWORKSHEETS

4. MIDE con tu TRANSPORTADOR DE ÁNGULOS y ESCRIBE el NOMBRE DE CADA ÁNGULO.

50° 80° 110° 30° 90° 140°

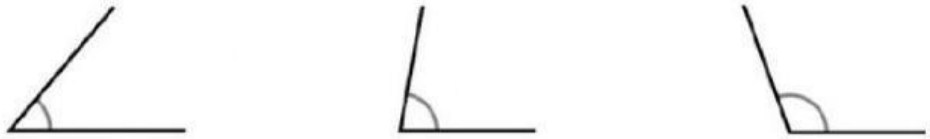

_____ grados _____ grados _____ grados

Es un ÁNGULO_____ _____ _____

_____ grados _____ grados _____ grados

Es un ÁNGULO_____ _____ _____

5. MIDE y ESCRIBE SU NOMBRE

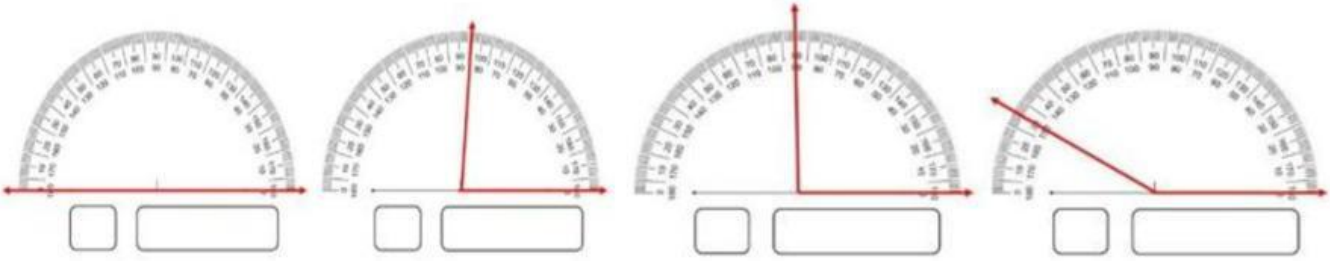

6. ESCRIBE el nombre de los elementos de un POLÍGONO

LADO | VÉRTICE | DIAGONAL | ÁNGULO

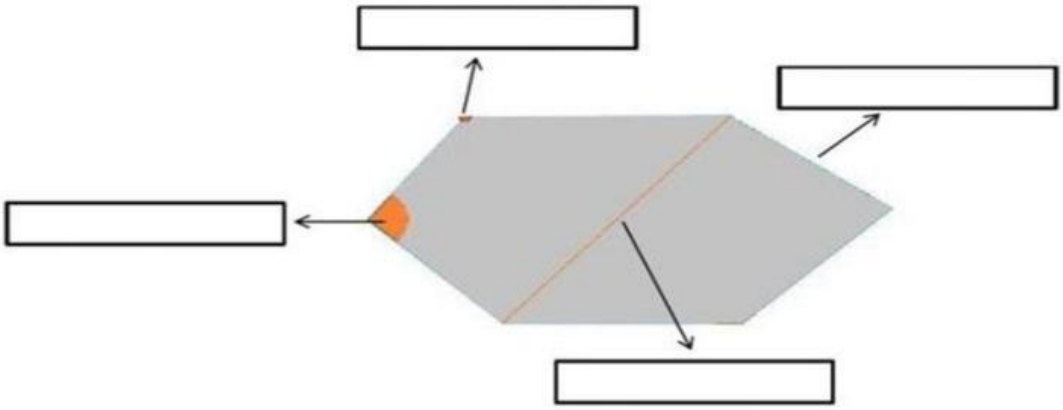

LIVEWORKSHEETS

7. **MARCA con una X el nombre de cada TRIÁNGULO según SUS LADOS y SUS ÁNGULOS.**

- Según sus LADOS
- Según sus ÁNGULOS

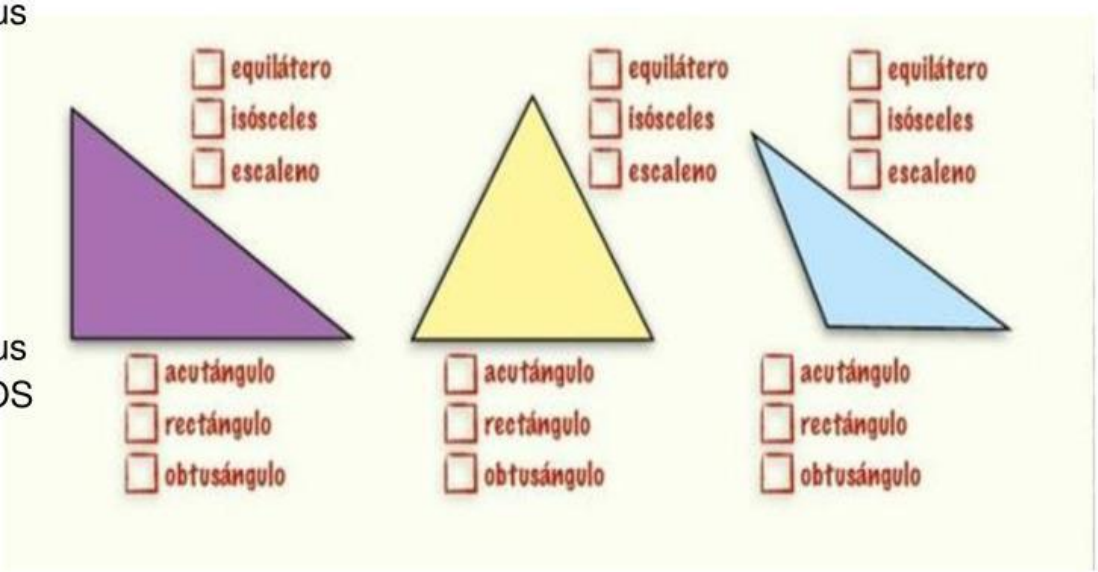

8. **UNE cada POLÍGONO con su NOMBRE.**



LIVEWORKSHEETS

9. COMPLETA el nombre de los siguientes CUADRILÁTEROS.

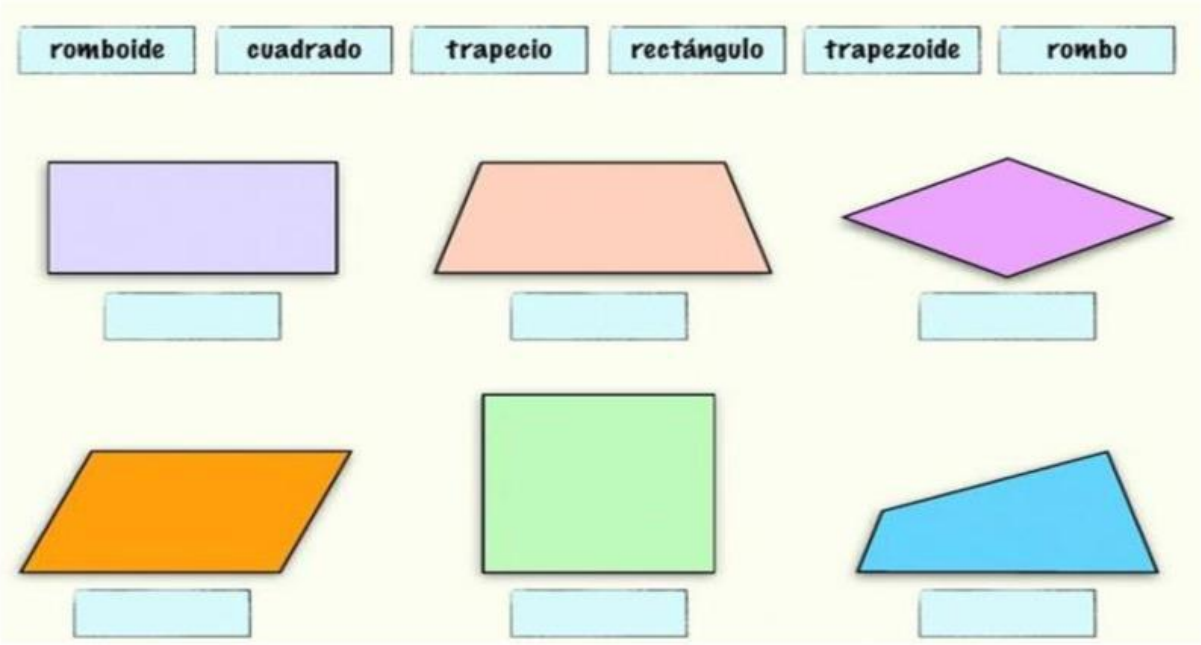

10 . UNE según corresponda:

11. CALCULA el PERÍMETRO de los siguiente POLÍGONOS.

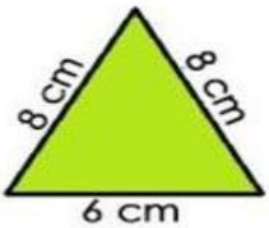

Perímetro: ____ cm

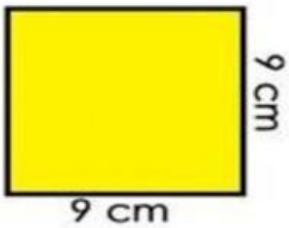

Perímetro: ____ cm

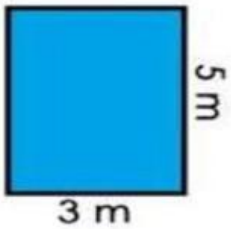

Perímetro: ____ m

LIVEWORKSHEETS