# LEMBAR KERJA PESERTA DIDIK

# BANGUN RUANG SISI LENGKUNG

**Kegiatan 1**

Carilah kata yang berhubugan dengan bangun ruaang sisi lengkung!

| | | | | | | | |
|---|---|---|---|---|---|---|---|
| K | B | I | G | B | W | R | E |
| S | R | E | R | O | E | T | V |
| S | C | T | S | L | F | G | D |
| J | E | H | I | A | G | H | G |
| W | R | U | S | U | K | J | H |
| Q | F | B | I | A | H | L | J |
| Y | D | V | W | Q | O | D | T |

**Kegiatan 2**

Yang merupakan bangun ruang sisi lengkung adalah:

- ☐ **Tabung**
- ☐ **Kerucut**
- ☐ **Balok**
- ☐ **Bola**

LIVEWORKSHEETS

**Kegiatan 3**



**Tabung** **Kerucut** **Bola**

**Kegiatan 4**

Sebutkan nama bangun ruang berikut dengan benar!

**Kegiatan 5**

Tarik panah untuk memasangkan jari-jari dan bangun ruang di bawah ini!

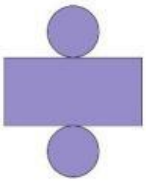



**Kegiatan 6**

Bangun ruang sisi lengkung yang rumus untuk mencari luasnya $\mathbf{s = \sqrt{(r^2 + t^2)}}$ adalah…

LIVEWORKSHEETS

**Kegiatan 7**

Sebuah tabung memiliki jari-jari 7 cm dan tinggi 10 cm.
Hitunglah volume tabung tersebut!

LIVEWORKSHEETS