Perhatikan gambar, bagian yang banyak mengandung oksigen adalah

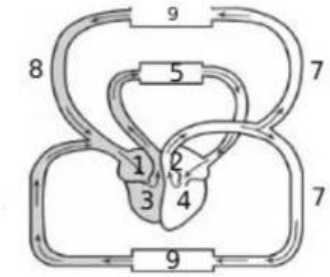

Jodohkan dengan tepat!

Fungsi
a. Kekebalan tubuh
b. Mengangkut zat makanan
c. Proses pembekuan darah
d. Mengangkut O_2

eritrosit

Trombosit

Sel darah putih

eritrosit

Beri nama masing-masing darah

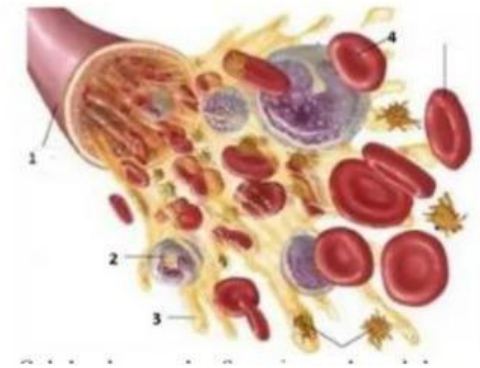

eritrosit

Trombosit

Sel darah putih

Pembuluh darah

Berillah nama Sistem ekskresi di bawah ini

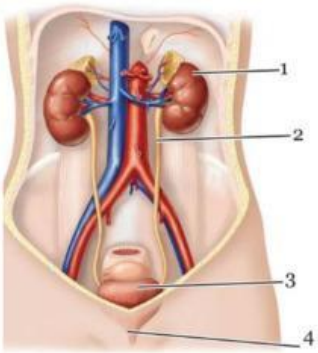

ginjal

ureter

uretra

Kandung kemih

LIVEWORKSHEETS

Pernafasan

Perhatikan gambar

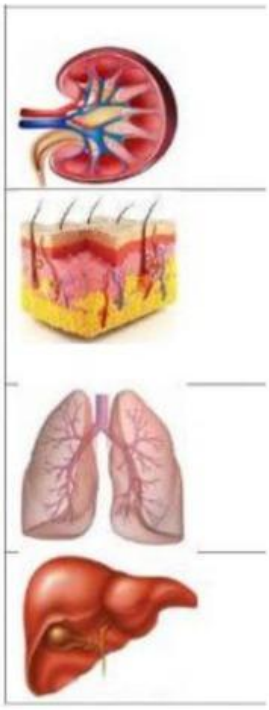

Untuk mengeluarkan bilirubin

Untuk mengeluarkan CO2

Untuk mengeluarkan urin

Untuk mengeluarkan keringat

LIVEWORKSHEETS

Gambar 1. Anak Tersedak Minuman
Sumber : suara.com

Pada gambar tersebut, terlihat seorang anak yang kesakitan akibat tersedak. Berhubungan dengan sistem pernapasan, menurut kalian masalah apa yang teridentidfikasi dari gambar tersebut? Organ apa yang bersangkutan sehingga terjadinya tersedak?

LIVEWORKSHEETS