SO SÁNH VÀ SẮP XẾP PHẠM VI 10

Họ và tên: _____ Ngày: _____

Bài 1. Bé hãy chọn số lớn hơn trong mỗi nhóm nhé



Bài 2. Bé hãy chọn số bé hơn trong mỗi nhóm nhé

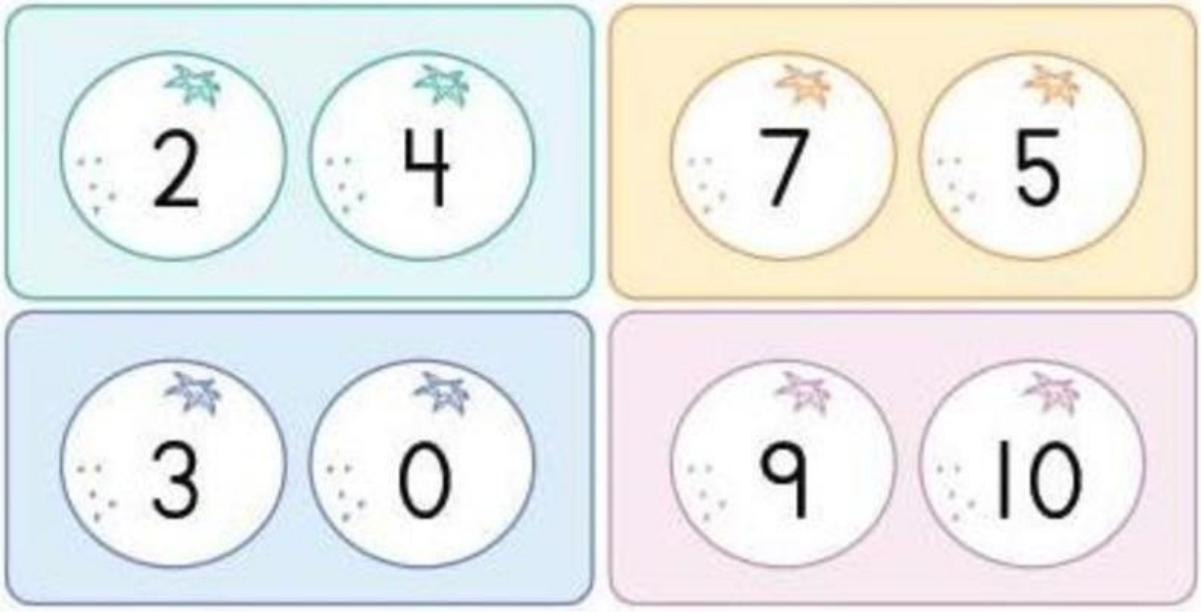

LIVEWORKSHEETS

Bài 3. Bé hãy khoanh vào số nhỏ nhất trong mỗi nhóm nhé

9	2	7
8	5	3
5	9	8
5	2	6

Bài 4. Bé hãy điền số còn thiếu trong các dãy số dưới dây nhé



1	10		8		6		4		2	
2		9		7		5		3		1
3	10				6				2	

LIVEWORKSHEETS