EL ESQUELETO (PÁGINAS 57-60)

1. Explica el esqueleto axial y el esqueleto apendicular.

- Esqueleto axial:

-Esqueleto apendicular:

2. Completa el siguiente cuadro:

Esqueleto axial	Esqueleto apendicular	
Huesos de la cabeza ■ ■	**Cintura escapular**	
	Extremidades superiores	
	Brazo	
Columna vertebral ■ ■ ■ ■ ■	Antebrazo	■ ■
	Mano	■ ■ ■
Huesos del tórax ■ – – – ■	**Cintura pélvica** Formada por los huesos coxales que se unen al sacro en la parte posterior	
	Extremidades inferiores	
	Muslo	■ ■
	Pierna	■ ■
Hioides Situado entre el maxilar inferior y el primer cartílago de la laringe.	Pie	■ ■ ■

LIVEWORKSHEETS

3. Completa el siguiente dibujo:

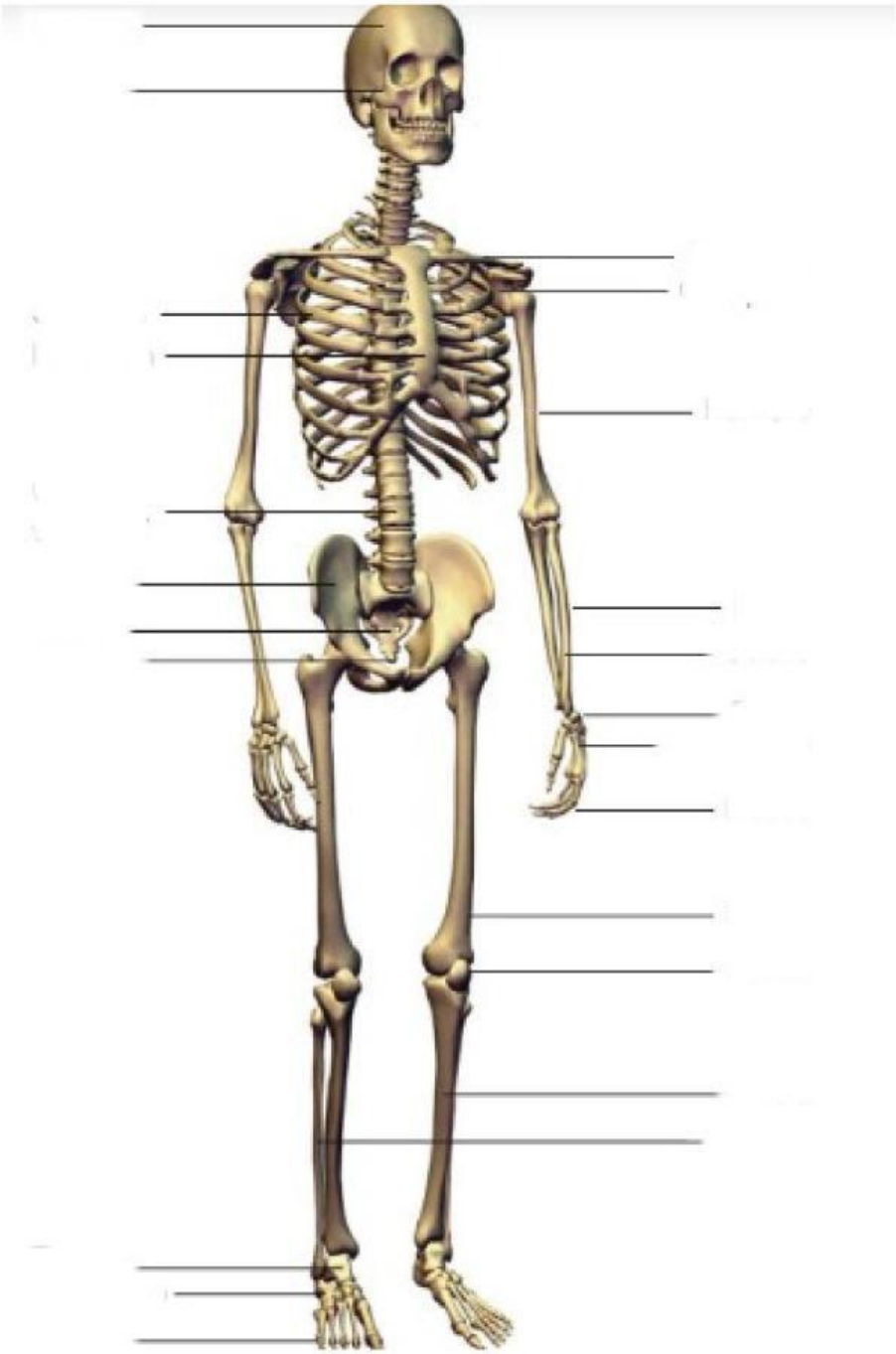

LIVEWORKSHEETS

4. Completa los siguientes dibujos sobre los huesos del cráneo y de la cara y de la columna vertebral:

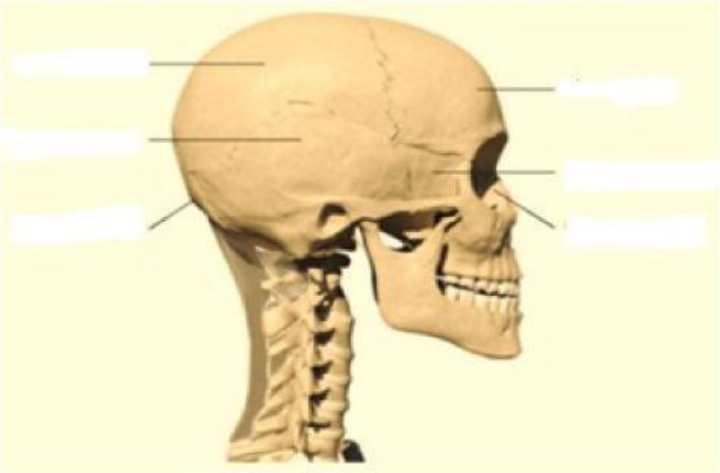

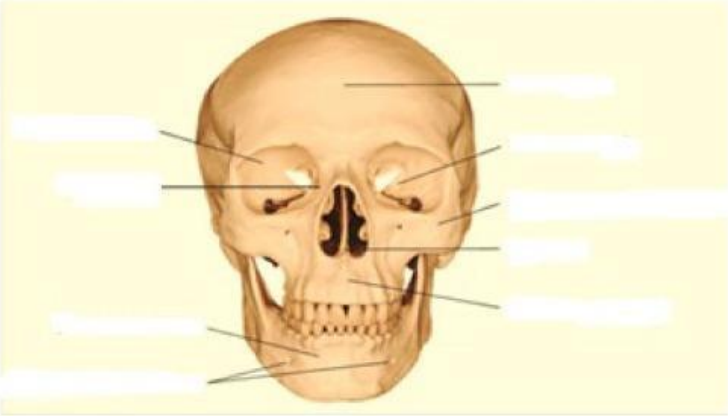

LIVEWORKSHEETS

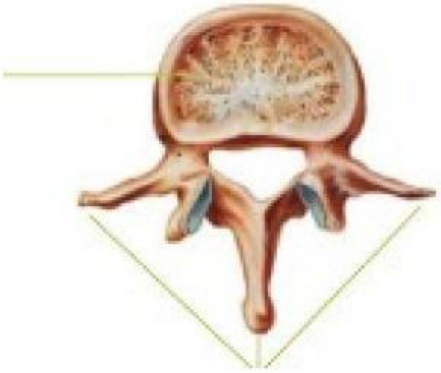

5. ¿Cuál es el nombre propio de las dos primeras vértebras cervicales?

6. Explica en relación a la columna vertebral:

- Cuerpo vertebral:

- Apófisis transversa, articular y espinosa:

- Lordosis lumbar:

- Cifosis coxal:

LIVEWORKSHEETS

7. Completa los siguientes dibujos:

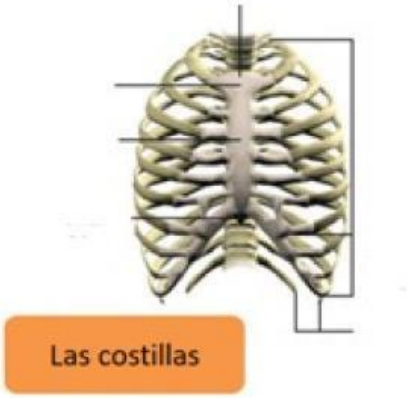

8. Define:

- Costillas verdaderas (1-7):

- Costillas falsas (8-10):

- Costillas flotantes (11-12):

9. ¿De la unión de qué tres huesos proviene el hueso coxal?

LIVEWORKSHEETS