SITUAMOS NÚMEROS EN LA RECTA NUMÉRICA Y APROXIMAMOS A LAS CENTENAS

Marca en la recta numérica dónde están los números que se indican.

695



408

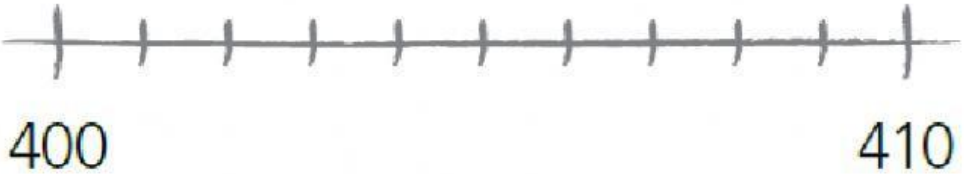

357



¿A qué número corresponde cada letra?



A = ☐ B = ☐

LIVEWORKSHEETS

¿Entre qué centenas están los siguientes números?

327

514

670

721

884

264

Aproxima a la centena más próxima.

342 →

780 →

521 →

907 →

295 →

LIVEWORKSHEETS