Nama: _____ Kelas: _____

Menghitung Jumlah Buah

Yuk, hitung berapa jumlah buah yang tersisa setelah ditambahkan, dan tuliskan angka di kotak yang tersedia!



+



= ☐



+



= ☐



+



= ☐



+



= ☐

LIVEWORKSHEETS

PENJUMLAHAN DAN PENGURANGAN SEDERHANA

Hitung hasil penjumlahan dan pengurangan di sebelah kiri, lalu hubungkan dengan jawaban yang benar di sebelah kanan!

12 + 5	○	○	6
7 + 6	○	○	17
10 - 4	○	○	7
6 - 3	○	○	13
15-8	○	○	3

LIVEWORKSHEETS

PENJUMLAHAN DAN PENGURANGAN ANGKA BESAR

LATIHAN SOAL PILIHAN GANDA

PETUNJUK : Kerjakan soal dibawah dengan seksama!

1. Hitunglah berapa hasil dari 50+75 .....

   a. 125 b. 251 c.135

2. Ibu Membeli 100 buah jeruk dan 120 buah mangga, hitunglah berapa total buah yang ibu beli .....

   a. 200 buah b. 215 buah c.220 buah

3. Hitunglah berapa hasil dari 350+110-50 .....

   a. 410 b. 310 c .250

4. Siswa di kelas 2 berjumlah 130 orang. Sebanyak 60 orang sudah hadir. hitunglah berapa sisa siswa yang belum hadir?

   a. 75 siswa b. 90 siswa c. 70 siswa

5. Ibu memanen 225 tomat. Sebanyak 125 tomat dijual ke pasar. Berapa sisa tomat yang dimiliki ibu sekarang .....

   a. 140 tomat b. 100 tomat c. 115 tomat

LIVEWORKSHEETS

HITUNG SERANGGA DAN PUTUSKAN: BENAR ATAU SALAH?

PETUNJUK :

Bacalah setiap kalimat. Perhatikan kelompok serangga (bayangkan atau rujuk pada gambar). Tentukan apakah kalimat tersebut BENAR atau SALAH. Lalu lingkari jawabannya.

"Ada 2 ulat."

BENAR SALAH

"Ada 5 bebek."



BENAR SALAH

"Ada 4 sapi."



BENAR SALAH

“Ada 6 lebah."



BENAR SALAH

LIVEWORKSHEETS

HITUNG DAN PILIH YANG SESUAI

PETUNJUK : Pilihlah jawaban yang benar!



3 brokoli	1 wartel	2 terong
2 wartel	4 tomat	5 tomat
2 wartel	2 brokoli	1 terong

LIVEWORKSHEETS