LKPD

Ilmu Pengetahuan Alam

Tema: Sistem Pencernaan Manusia

Nama: _____

Kelas: _____



LIVEWORKSHEETS

Organ Pencernaan Manusia

Hubungkan gambar dengan nama organ pencernaan yang sesuai.

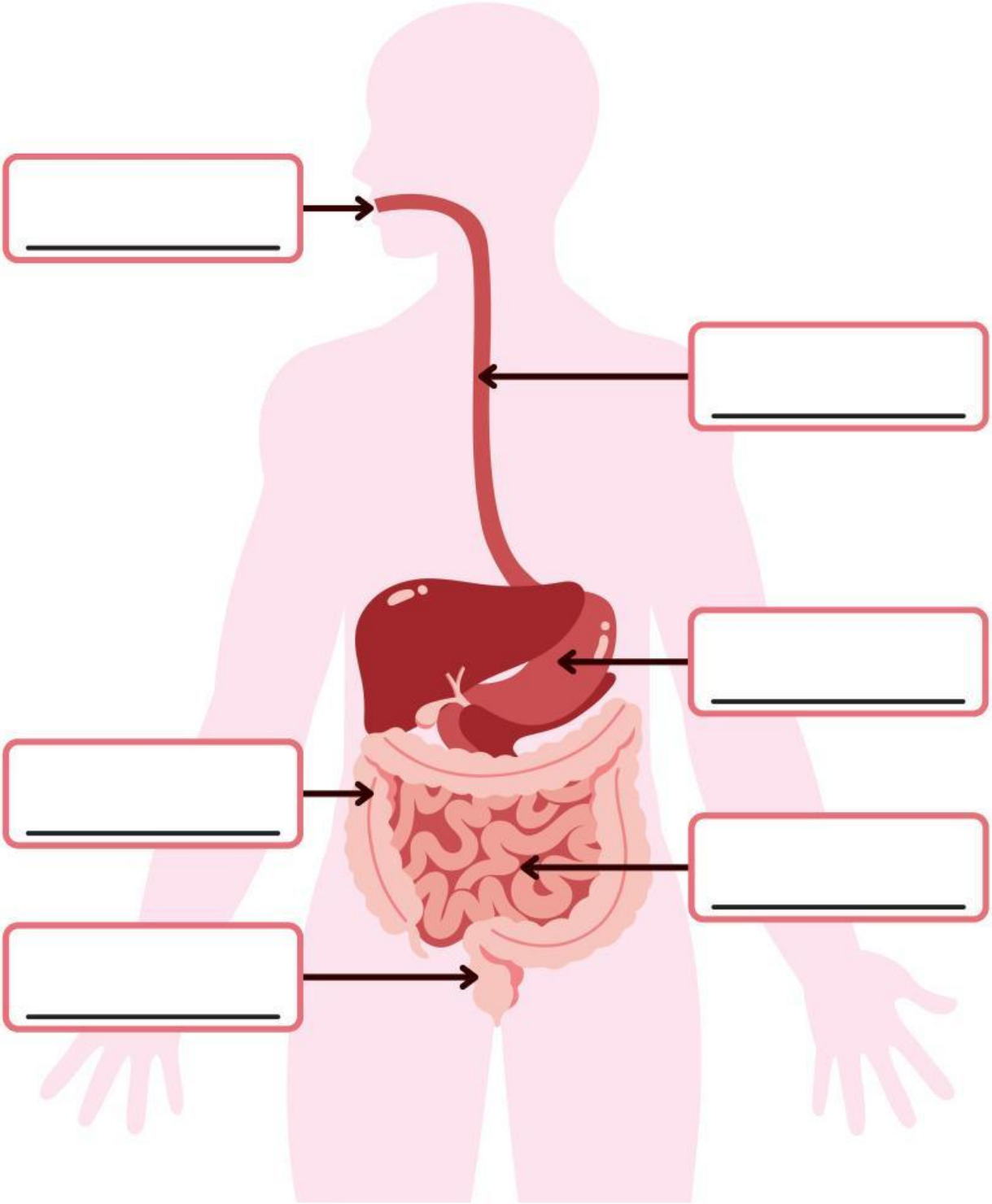

LIVEWORKSHEETS

Proses Pencernaan

Perhatikan gambar, Tulislah nama organ dan proses pencernaan yang terjadi pada tabel di bawah ini.

No.	Gambar	Nama Organ	Proses Pencernaan
1.		_____	_____ _____ _____
2.		_____	_____ _____ _____
3.		_____	_____ _____ _____
4.		_____	_____ _____ _____
5.		_____	_____ _____ _____

LIVEWORKSHEETS

Gangguan Organ Pencernaan

Jawablah pertanyaan di bawah ini.



Pertanyaan:

- Apa saja gangguan yang dapat terjadi pada sistem pencernaan manusia?

  Jawab: _____

- Apa penyebab terjadinya gangguan pada sistem pencernaan?

  Jawab: _____

- Bagaimana cara mencegah terjadinya gangguan pada sistem pencernaan?

  Jawab: _____

LIVEWORKSHEETS