Berhitung 1 Sampai 10

Ayo hitung dan pasangkan dengan bilangan yang tepat!

1

3

4

5

6

7

8

9

10

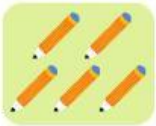

LIVEWORKSHEETS

Mengurutkan Bilangan

Hitunglah jumlah benda dan urutkan bilangan dengan benar!

Urutan dari terkecil ___ , ___ , ___.

Urutan dari terbesar ___ , ___ , ___.

Urutan dari terkecil ___ , ___ , ___.

Urutan dari terbesar ___ , ___ , ___.

LIVEWORKSHEETS

SOAL CERITA BERGAMBAR

PETUNJUK : Baca cerita bergambar lalu hitung dan tulis jawabannya.

1. Dito punya dan adiknya punya Berapa semua permen?

2. Ada di kandang pertama, dan di kandang kedua. Ada berapa semua ayam?

3. Rani membeli lalu diberi 2 lagi oleh temannya. Berapa total hadiah?

4. Di taman ada lalu datang 1 lagi. Ada berapa sekarang?

LIVEWORKSHEETS

Pecahan dengan Pembilang Satu

Tuliskan bentuk pecahan dari gambar yang diarisr dari keseluruhan berikut dengan tepat!

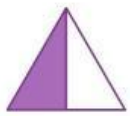 = $\frac{\square}{\square}$

= $\frac{\square}{\square}$

= $\frac{\square}{\square}$

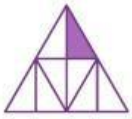 = $\frac{\square}{\square}$

 = $\frac{\square}{\square}$

= $\frac{\square}{\square}$

= $\frac{\square}{\square}$

= $\frac{\square}{\square}$

LIVEWORKSHEETS

SOAL CERITA MATEMATIKA

PETUNJUK : Bacalah setiap soal dengan saksama. Tulis jawaban yang benar di kotak.

Sarah memetik 7 buah apel. Kakaknya memberinya 5 buah apel lagi. Berapa banyak apel yang dimilikinya sekarang?

Ada 20 siswa di dalam bus. 8 siswa turun. Berapa banyak siswa yang tersisa di dalam bus?

Emma memiliki 3 ekor anjing. Ia memberikan 4 camilan untuk setiap anjing.
Berapa banyak camilan yang ia berikan secara total?

Liam punya 24 permen. Ia ingin membaginya secara merata ke dalam 4 kantong pesta. Berapa banyak permen yang ada di setiap kantong?

Mia membuat 18 kue. Dia memakan 2 kue dan memberikan 6 kue kepada teman-temannya. Berapa banyak kue yang tersisa?

LIVEWORKSHEETS

Penjumlahan Sederhana

Jumlahkan dan berilah tanda ✓ pada jawaban yang benar

3 + 3	2 + 6
4 5 6	7 8 9
2 + 3	3 + 1
3 4 5	3 4 5
4 + 3	5 + 4
6 7 8	7 8 9

LIVEWORKSHEETS