12. Να υπολογίσετε το ποσοστό της επιφάνειας του σχήματος που είναι σκιασμένο σε κάθε περίπτωση.

(α)



%

(β)

%

(γ)

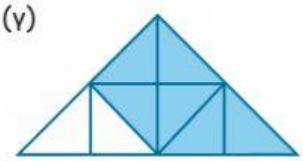

%

(δ)

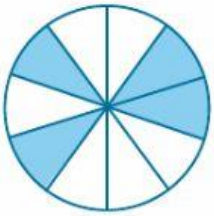

%

(ε)

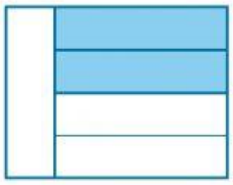

%

(στ)

%

13. Η Μαρίνα έγραψε στο τετράδιό της τους 10 πρώτους τετράγωνους αριθμούς.

(α) Τι ποσοστό από τους αριθμούς αυτούς είναι άρτιοι;

%

(β) Τι ποσοστό από τους αριθμούς αυτούς είναι πολλαπλάσια του 5;

%

14. Να συμπληρώσετε με φυσικούς αριθμούς, ώστε να ισχύουν οι πιο κάτω ανισότητες.

(α) $\frac{\square}{8} < 75\%$

(β) $0{,}27 > \frac{\square}{4}$

(γ) $30\% < \frac{3}{\square}$

(δ) $\frac{5}{\square} > 0{,}52$

(ε) $15\% > \frac{\square}{20}$

(στ) $69\% < \frac{\square}{50} < 73\%$

LIVEWORKSHEETS