ČESKÁ REPUBLIKA
Půdy

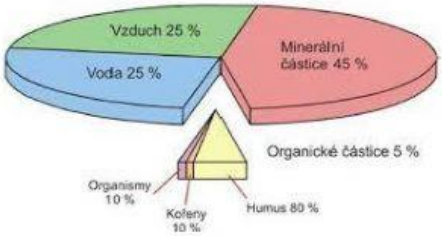

Půda vzniká erozí / zvětráváním (horniny se rozpadají na menší částice).

Doplň nebe vyber. Půda je složena z **živé a neživé části**.

_____ část:

_____ (hlína, jíl, prach, písek, kamínky)

_____ (půdní vody)

_____ (půdní vzduch)

_____ (odumřelé části rostlin, zbytky těl odumřelých živočichů)

_____ část:

kořeny _____ rostlin

_____ živočichové (mravenci…)

mikroorganismy

Vyber spravný půdní typ. **Půdní typy** jsou ovlivňovány geologickým podložím a nadmořskou výškou.

nížiny: _____

kolem velkých řek: _____

horské oblasti (chudé p.) _____

vlhké oblasti pahorkatin: _____

málo úrodné vrchovinné oblasti: _____

krasové oblasti (chudé p.) _____

_____ mají nejvíce humusu a jsou nejúrodnější

Vyber správný půdní druh a přiřaď obrázek. Půdní druhy závisí na druhu hornin a způsobu zvětrávání

__ _____ velké částice, propustný

__ _____ menší částice, středně propustný

__ _____ malé částice, velmi málo propustný, až nepropustný



LIVEWORKSHEETS

Spoj pojmy, které k sobě patří.

1 ___	1 Šumava	A černozemě
2 ___	2 Českomoravská vrchovina	B nivní půdy
3 ___	3 Polabská nížina	C hnědé lesní půdy
4 ___	4 záplavové oblasti řeky Moravy	D podzolové půdy
5 ___	5 jižní Čechy - Třeboňsko	E zamokřené půdy

Doplň typy půd do obrázku.

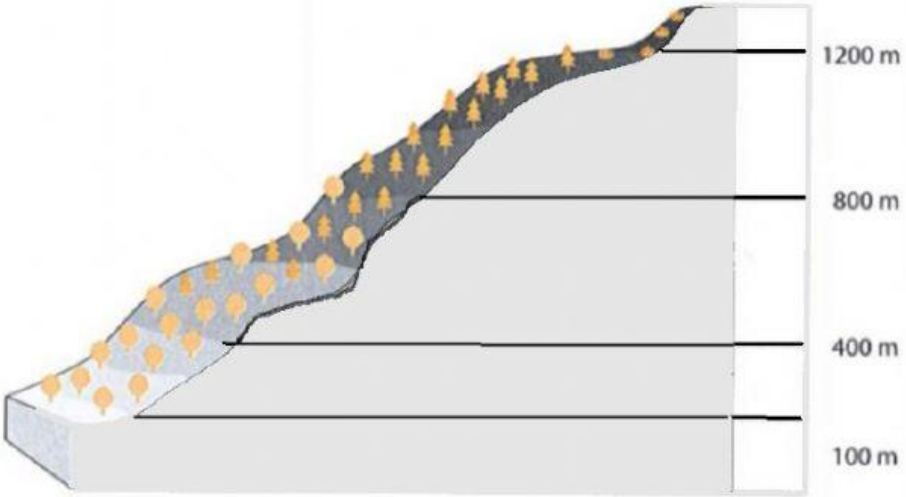

A podzoly

B černozemě

C hnědé země

D hnědozemě

LIVEWORKSHEETS