Escuela Rogelio Fernández G.
II Estrategia Evaluativa Ciencias
Lic. Nicole Sánchez Serrano
II Semestre 2025
Tercer nivel, sección 3-3

Tiempo probable 80 minutos
Valor de la prueba 23 puntos

Valor porcentual 10 %
Puntuación Obtenido_____
Calificación Obtenida_____
Porcentaje Obtenido_____

Fecha: miércoles 12 de noviembre del 2025

Nombre del Estudiante: _____

Instrucciones Generales:

- Lea cuidadosamente cada pregunta y conteste lo que se le solicita.
- Levante la mano si tiene alguna duda, para que sea atendido(a).
- Resuelva su prueba en silencio y de manera individual.
- Trabaje con orden y aseo.
- Revise la prueba antes de entregarla.

Actividad #1.

Indicaciones. Seleccione la opción correcta. (2 pts, 1 pt cada respuesta correcta)

1. El uso irracional que muestra la imagen corresponde a

Contaminación del aire y agua

Rayos de sol

LIVEWORKSHEETS

2. El uso irracional que muestra la imagen corresponde a

Comer muchas cosas

Desperdicio de energía

Actividad#2. Identificación. Indicaciones. Seleccione la opción correcta. (3 pts, 1 punto cada respuesta correcta)
Observe la imagen. ¿A cuál **fuente de energía** corresponde la imagen?





LIVEWORKSHEETS

Actividad #3. Instrucciones: Marque la opción que antecede la respuesta correcta. (8 pts, 1 pt cada respuesta correcta)

Máquina Simple

Máquina compuesta

Máquina Simple

Máquina compuesta

Máquina Simple

Máquina compuesta

Máquina Simple

Máquina compuesta

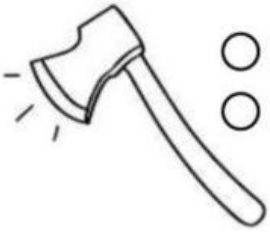

- ○ Máquina simple
- ○ Máquina compuesta

- ○ Máquina simple
- ○ Máquina compuesta



- ○ Máquina simple
- ○ Máquina compuesta

- ○ Máquina simple
- ○ Máquina compuesta

LIVEWORKSHEETS

Caso.

Actividad#4. Indicaciones: Lea el siguiente caso y marque la opción que muestra la respuesta correcta. (4 pts).

Una fábrica ha sido acusada de contaminar el aire con emisiones dañinas provenientes de sus máquinas. Las personas tienen problemas respiratorios.



☐	VENTAJA
☐	DESVENTAJA

LIVEWORKSHEETS

Actividad#4. **Indicaciones:** Observe los recipientes y marque la opción que muestra el recipiente de **mayor** volumen. (Valor 6 pts, 1 punto cada respuesta correcta).







LIVEWORKSHEETS

Escala para calificar Estrategia de Ciencias

Indicadores	No responde o no lo logra	1	2	3	4	5	6	7	8
1.Reconoce el uso irracional de los recursos del entorno inmediato.									
2. Reconoce las fuentes de energía que requieren algunas máquinas.									
Reconoce las maquinas simples y compuestas.									
4. Reconoce ventajas y desventajas de las máquinas.									
5.Describe ejemplos de la materia Menciona los instrumentos de medición, para conocer características físicas de los objetos materiales.									
Calificación: 100 **Total de puntos: 23** **Porcentaje: 10%**	**Puntos:** _____**Porcentaje:**_____**Calificación:**_____								

LIVEWORKSHEETS