DALLA FRAZIONE AI NUMERI DECIMALI: guarda i disegni e scrivi in numero la quantità.

Benedetta va in panificio e acquista		.....	pizzette.
Andrea va in panificio e acquista		.....	pizzette.
Marco va in panificio e acquista		.....	pizzette.
Kimberly va in panificio e acquista		.....	pizzette.
Mattia va in panificio e acquista	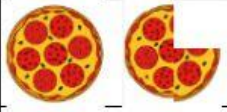	.....	pizzette.
Lorenzo va in panificio e acquista		.....	pizzette.

Alcuni amici hanno acquistato parecchie tavolette di cioccolata. Dopo un settimana ecco la quantità mangiata da ciascuno. Scrivila in numero come sopra.

Giovanni mangia		.....	tavolette.
Giorgia mangia		.....	tavolette.
Anfisa mangia		.....	tavolette.

LIVEWORKSHEETS

Adam mangia		.....	tavolette.
Nicola mangia		.....	tavolette.

Queste sono le mele che hanno mangiato in una settimana a scuola alcuni alunni. Conta e scrivi in numero quante mele hanno mangiato.

Anja mangia		.....	mele.
Yasmine mangia		.....	mele.
Matteo mangia		.....	mele.
Riccardo mangia		.....	mele.
Eros mangia		.....	mele.
Edoardo mangia		.....	mele.
Bardh mangia		.....	mele.
Matias mangia		.....	Mele.

LIVEWORKSHEETS