LKPD

ILMU PENGETAHUAN ALAM

TEMA :

BAGIAN-BAGIAN TUMBUHAN DAN FUNGSINYA

Nama :

Kelas :

LIVEWORKSHEETS

BAGIAN 1

Amatilah gambar tanaman dibawah ini, kemudian tuliskan bagian bagian apa saja yang ada di gambar tumbuhan tersebut!



LIVEWORKSHEETS

BAGIAN 2

Tuliskan fungsi bagian-bagian tumbuhan yang sudah kamu tulis sebelumnya pada bagian 1, pada kolom yang tersedia.

1

2

3

4

5

LIVEWORKSHEETS

Nama : Kelas :

Lembar Kerja Ilmu Pengetahuan Alam

Tema: Tumbuhan

Instruksi:

Bacalah setiap pertanyaan dengan cermat. Lingkari jawaban yang menurut kamu benar!

1. Bagian tumbuhan yang berfungsi menyerap air dan nutrisi dari tanah adalah ...

A. Daun B. Batang C. Akar D. Bunga

2. Bagian tumbuhan yang berwarna hijau dan melakukan proses fotosintesis adalah ...

A. Akar B. Batang C. Daun D. Biji

3. Bagian tumbuhan yang berfungsi mendukung agar tumbuhan bisa berdiri tegak adalah ...

A. Akar B. Batang C. Daun D. Bunga

4. Bunga pada tumbuhan umumnya tumbuh di bagian ...

A. Ujung batang B. Daun C. Akar D. Biji

5. Bagian tumbuhan yang mengandung benih untuk tumbuhnya tanaman baru adalah ...

A. Daun B. Batang C. Biji D. Akar

LIVEWORKSHEETS

FUNGSI BAGIAN TUMBUHAN

Bagian Mana yang Berfungsi?

Nama :

Kelas :

Pilih benda yang lebih panjang dari pasangannya.

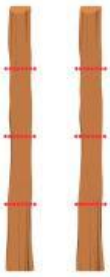

- Menopang tumbuhan
- Tempat berkembang biak
- Tempat membuat makanan
- Menyerap air

LIVEWORKSHEETS

Nama: ..... Kelas: .....

SIKLUS TUMBUHAN

Gunting dan tempel tahapan siklus hidup tumbuhan dengan tepat!





BENIH KECAMBAH SEMAI TUMBUHAN

LIVEWORKSHEETS

Nama: Kelas:

Mengenal Anggota Tubuh

Tariklah garis dari gambar ke namanya yang sesuai!

Hidung

Bibir

Telinga

Rambut

Mata

Gigi

LIVEWORKSHEETS

Nama: Kelas:

Mengenal Anggota Tubuh

Tariklah garis dari gambar ke namanya yang sesuai!

- Siku
- Kaki
- Jari Kaki
- Tangan
- Jari Tangan
- Lidah

LIVEWORKSHEETS