NAMA:..... TINGKATAN : .....

BAHAGIAN B (30 markah)

1. ISI TEMPAT KOSONG DENGAN JAWAPAN YANG PALING TEPAT (6 markah)

Lawan jam	Utaraan	budaya	Pasang anak
fizikal	Jarak mutlak	rujukan grid	Timuran
Pasang perbani	Jarak relatif	Ikut jam	Garisan grid

a. _____ ialah jarak yang dinyatakan dalam unit seperti meter dan kilometer.

b. _____ ialah kombinasi antara nilai garisan timuran dengan nilai garisan utaraan pada titik persilangan.

c. Garisan _____ ialah garisan grid yang dilukis secara melintang

d. Paya bakau, kontur dan belukar merupakan ciri pandang darat _____

e. Peredaran bumi mengelilingi matahari mengikut arah _____

f. Air _____ berlaku apabila bulan bumi dan matahari berada dalam kedudukan garis lurus

2. Padankan pernyataan di bawah (4 markah)

Pernyataan
Skala yang berbentuk ayat
Skala yang berbentuk nisbah
Nisbah jarak di atas peta berbanding dengan jarak sebenar
Skala yang berbentuk satu garisan lurus yang dibahagikan kepada beberapa bahagian yang sama jaraknya

Bentuk muka bumi
Skala lurus
Skala
Skala penyata
Pecahan wakilan

LIVEWORKSHEETS

3. Tandakan (X) pada pernyataan yang betul dan (√) pada pernyataan yang salah (5 markah)

A	Jarak relatif adalah berubah – ubah berdasarkan jenis pengangkutan	
B	Fenomena pasang surut berlaku sebanyak dua kali dalam tempoh 24 jam	
C	Rujukan grid 6 angka digunakan untuk menentukan sesuatu kawasan yang luas	
D	Dalam setiap jam, bumi akan berputar sebanyak 15^0 longitud	
E	Terdapat lapan planet yang mengelilingi bumi	

5. Berdasarkan Rajah 1 dibawah, jawab soalan berikut

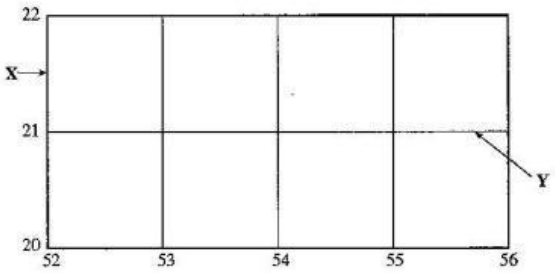

Rajah 1

Garisan X ialah _____

Garisana Y ialah _____

LIVEWORKSHEETS

6. Rajah di bawah menunjukkan peredaran bumi mengelilingi matahari dalam setahun. Namakan **empat musim** yang dialami semasa pergerakan tersebut

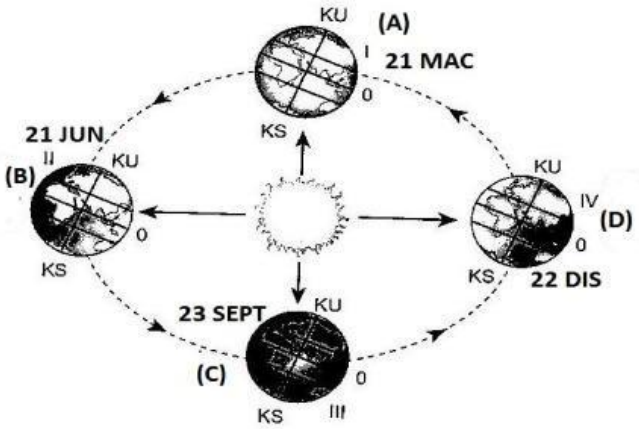

	TARIKH	KEJADIAN
A	21 MAC	
B	21 JUN	
C	23 SEPT	
D	22 DIS	

7. Jawab soalan – soalan yang berikutnya berdasarkan rajah di bawah (5 markah)

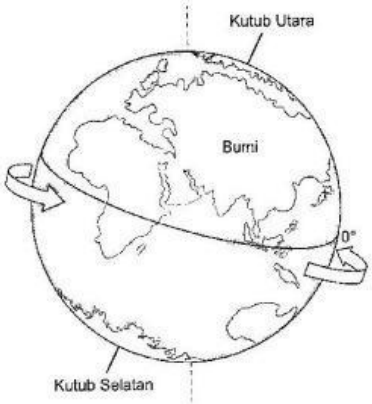

LIVEWORKSHEETS

a. Pergerakan bumi dalam rajah di atas dikenali sebagai _____

b. Satu pergerakan bumi yang lengkap mengambil masa _____-

C, Nyatakan tiga kesan pergerakan bumi seperti dalam rajah di atas

I) _____

II) _____

III) _____

LIVEWORKSHEETS