แบบทดสอบ
เรื่อง ฟังก์ชันตรีโกณมิติ

1. จากวงกลมหนึ่งหน่วย (unit circle) ให้นักเรียนเติมช่องว่างให้ถูกต้อง

เมื่อ r = 1 ความยาวของเส้นรอบวงของวงกลมหนึ่งหน่วยเท่ากับ 2π

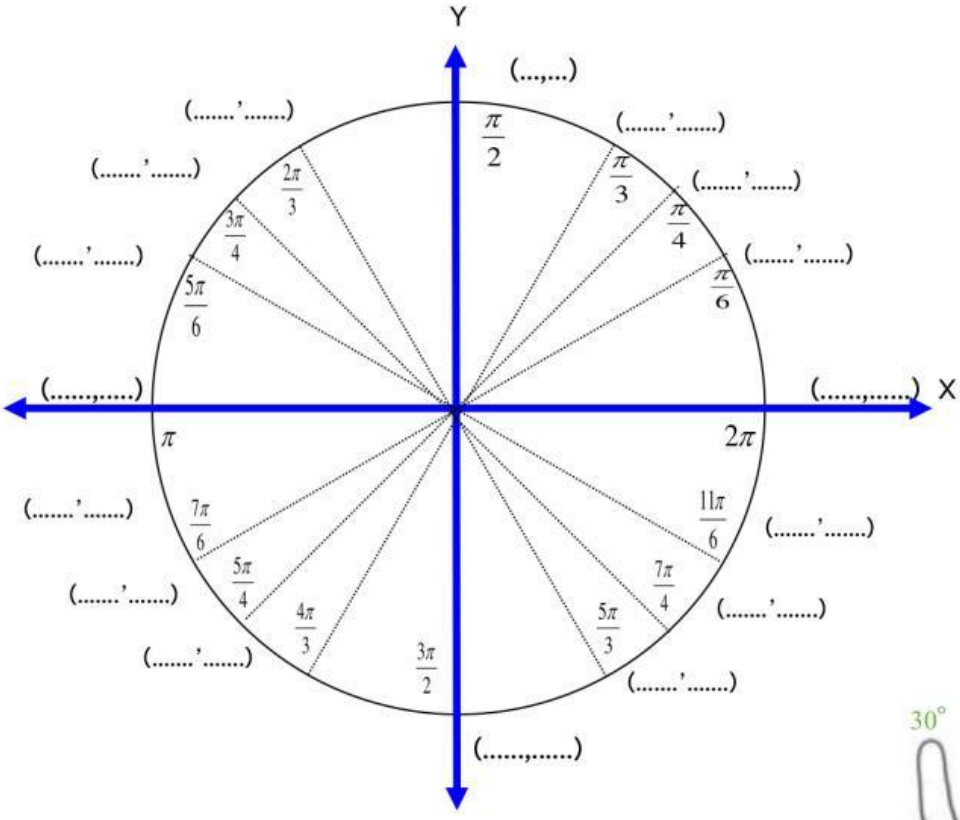

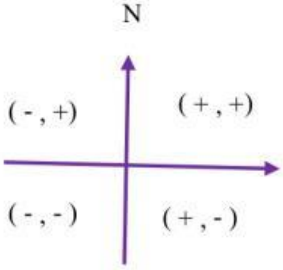

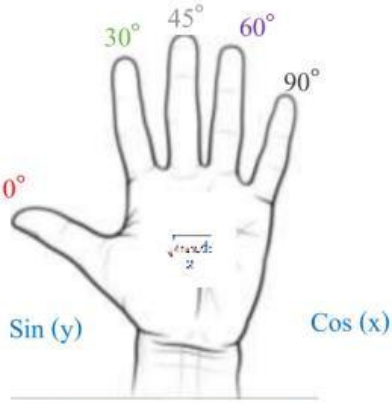

กฎของมือข้างซ้าย

ชื่อ.....

LIVEWORKSHEETS