HÌNH TRÒN

Câu 1. Đánh dấu tick vào ô đáp án dưới các hình là hình tròn:



☐ ☐ ☐ ☐

Câu 2. Điền vào chỗ trống:

a/ Hình tròn có 1 điểm ở giữa được gọi là ..... .

b/ Đường thẳng nối tâm với 1 điểm trên đường tròn gọi là ..... .

c/ Đường thẳng đi qua tâm và cắt đường tròn tại 2 điểm được gọi là ..... .

Câu 3. Nối cột A với cột B tương ứng:

A	B
Đường kính	**là điểm chính giữa hình tròn**
Tâm	**gấp 2 lần bán kính**
Bán kính	**bằng 1 nửa đường kính**

LIVEWORKSHEETS

Câu 4. Đọc câu hỏi và chọn đáp án đúng:

*a/ Hình tròn có đường kính là **6cm**. Vậy bán kính của đường tròn đó là:*

A. 6 cm B. 3 cm C. 12 cm

b/ Hình tròn có tâm cách đường tròn 12cm. Hỏi đường kính của hình tròn đó dài bao nhiêu cm?

A. 24 cm B. 12 cm C. 6 cm

c/ Đường thẳng đi qua tâm O và cắt đường tròn tại 2 điểm A và B. Hỏi:

A. AB = ½ OA B. OA = OB C. OA = 2 AB

Câu 5. Tick vào những đồ vật có hình dạng là 1 hình tròn:

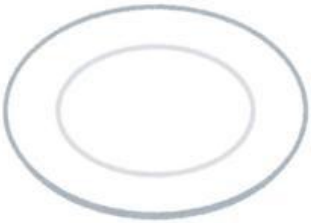

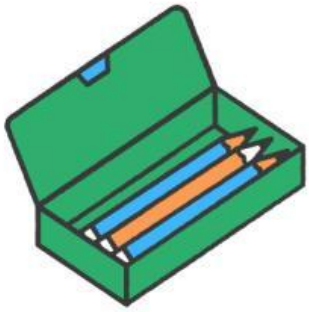

☐ ☐ ☐ ☐

Câu 6. Hãy kể tên những đồ vật có hình tròn mà em biết:

.....

.....

.....

.....

LIVEWORKSHEETS