CENTRO ESCOLAR CANTÓN LOS HUEZO

EXAMEN DE MATEMÁTICA CORRESPONDIENTE AL III TRIMESTRE 2025

OCTAVO GRADO

Nombre:_____fecha:_____

Indicación: Resuelve los siguientes ejercicios de forma limpia y ordenada. Cada numeral vale 2 puntos

Encuentra el volumen de los siguientes sólidos.

a)

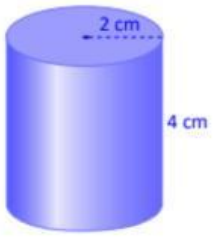

b)

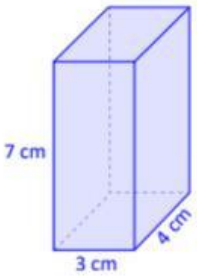

c) Encuentra el volumen de la siguiente pirámide cuadrangular.

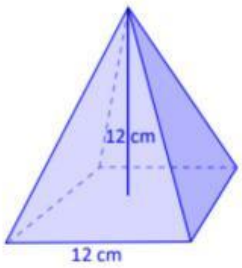

LIVEWORKSHEETS

d)

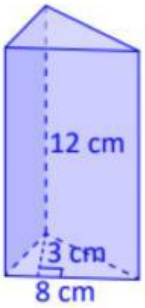

e)

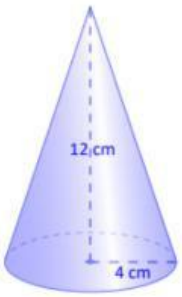

f) Encuentra el volumen de la esfera de radio 10 cm.

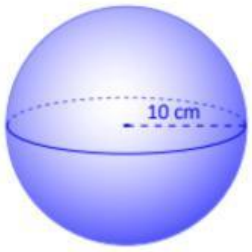

LIVEWORKSHEETS