	Colegio Mayor de San Bartolomé	Área: Ciencias Naturales y educación ambiental	GRADO CUARTO 2021 Primer Periodo
	VALORACIÓN INDIIVIDUAL DE ACTIVIDADES DE SEGUMIENTO		

NOMBRE: _____ **FECHA:** _____ **SECCIÓN:** _____

1. Observa los siguientes organelos celulares y escribe el nombre según corresponda

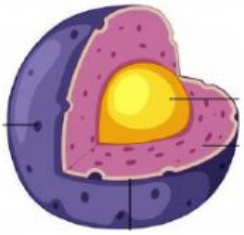

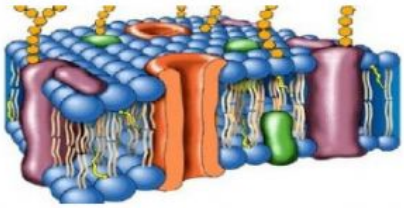

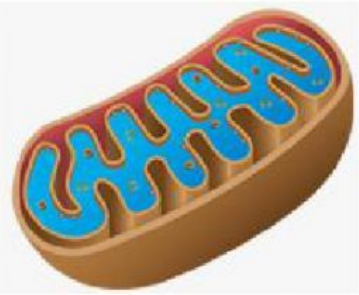

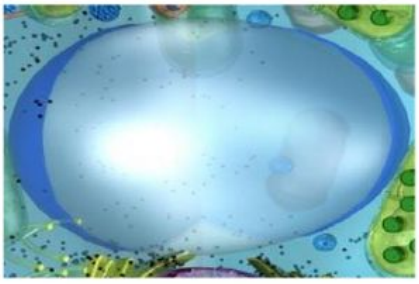

2. Une con una flecha el organelo y la función correspondiente

MITCONDRIA	**Almacenan agua y nutrientes de la célula.**
NÚCLEO	**Es la puerta de entrada y salida de las sustancias**
MEMBRANA CELULAR	**Capa gruesa que rodea la membrana celular y da soporte a las plantas**
CLOROPLASTO	**Almacenan la clorofila, sustancia que da el color verde a las plantas**
VACUOLA	**Produce la energía de la célula para que pueda realizar sus funciones**
PARED CELULAR	**Coordina todas las funciones de la célula y almacena los genes**

LIVEWORKSHEETS

3. Busca en la sopa de letras los organelos que hacen parte de la célula y clasifícalos en el cuadro.

H	P	A	R	E	D	C	E	L	U	L	A	R	W
K	V	G	T	K	J	Z	G	L	S	Q	W	H	I
C	E	R	I	C	V	U	P	M	H	S	Z	C	U
J	Q	Q	S	V	A	C	U	O	L	A	D	J	J
E	Y	L	U	C	U	A	I	H	L	C	O	I	Q
V	W	V	G	N	M	N	U	Y	J	K	P	Z	P
Y	O	K	A	G	M	L	L	Y	F	U	B	A	H
V	P	H	F	K	L	S	M	U	E	B	F	H	F
F	F	R	L	M	D	N	U	C	L	E	O	E	C
Q	E	V	M	I	T	O	C	O	N	D	R	I	A
R	D	O	O	M	E	M	B	R	A	N	A	T	D
A	Y	C	I	T	O	P	L	A	S	M	A	K	R
X	W	Z	H	F	M	Y	B	Z	G	Q	W	I	K
P	C	L	O	R	O	P	L	A	S	T	O	S	X

CÉLULA ANIMAL	CÉLULA VEGETAL

4. Observa la siguiente imagen de la célula y contesta los enunciados con falso o verdadero

Las amebas son seres multicelulares

Las algas hacen parte de los seres multicelulares

Las aves hacen parte de los seres unicelulares

LIVEWORKSHEETS

5. Coloca las partes de la célula y sus funciones en su lugar correspondiente

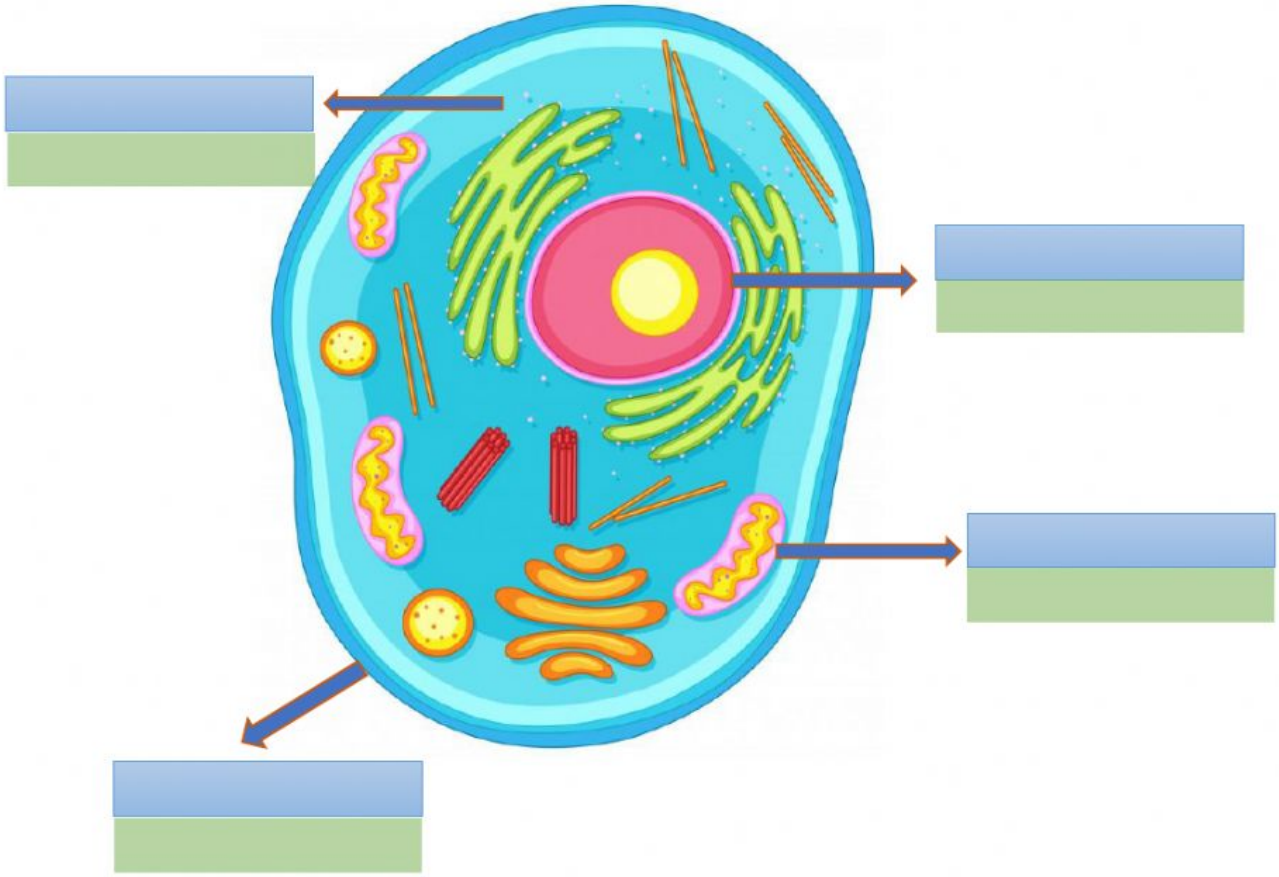

CITOPLASMA

MITOCONDRÍA

MEMBRANA

NÚCLEO

Ocupa la mayor parte de la célula y está formado por agua

Rodea la célula, la separa del medio externo y es la puerta de entrada u salida

Tiene forma esférica, coordina todas las funciones de la célula

Lleva a cabo el proceso de respiración celular par así obtener eneraía

LIVEWORKSHEETS