Вариант II

Часть 1

А1. Тупой угол изображен на рисунке

а) б) в) г)

А2. Перпендикулярные прямые изображены на рисунке

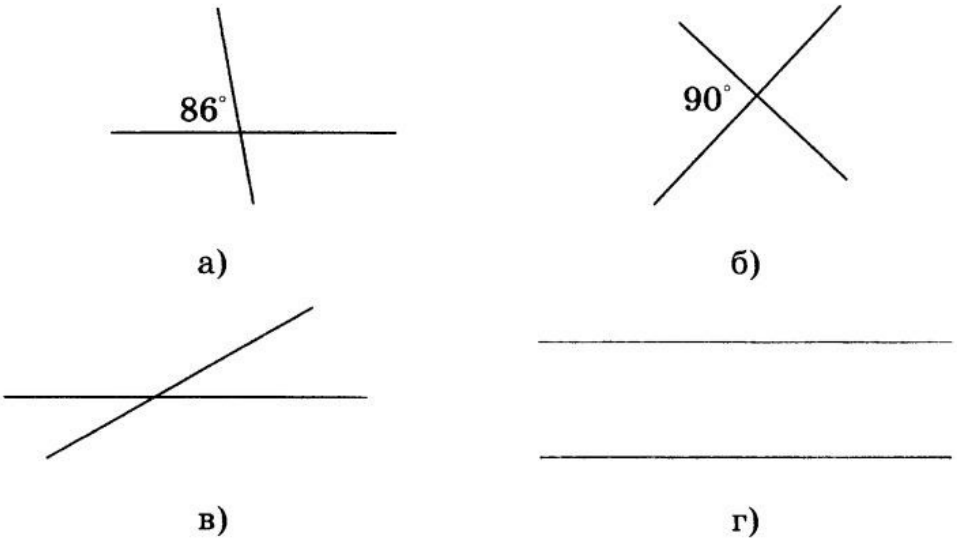

а) б) в) г)

А3. Равные фигуры изображены на рисунке

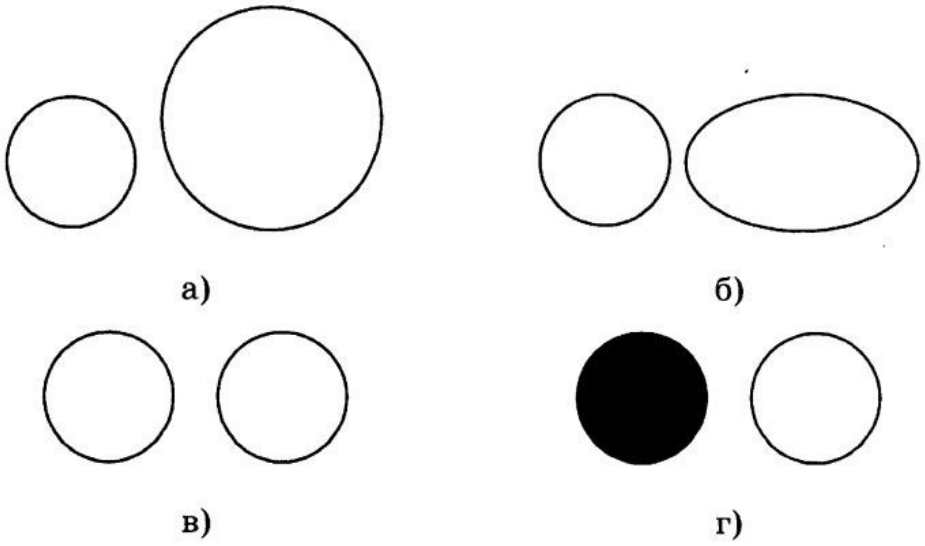

а) б) в) г)

LIVEWORKSHEETS

А4. Если точка B — середина отрезка AC, то

а) $AC + CB = AC$;
б) $AB = AC$;
в) $AB = 2AC$;
г) $AC = 2AB$.

А5. Точка A делит отрезок BC на два отрезка. $AB = 6$ см, $AC = 9$ см. Тогда BC будет равен

а) 15 см;
б) 3 см;
в) 6 см;
г) 9 см.

А6. Один из углов, образованных при пересечении двух прямых, — острый. Тогда остальные углы будут

а) острый и тупые;
б) тупые и прямой;
в) острые;
г) тупые.

А7. Луч OE делит угол COB на 2 угла. $\angle COE = 26^\circ 54'$, $\angle COB = 55^\circ 46'$. Тогда $\angle EOB$ равен

а) $28^\circ 92'$;
б) $28^\circ 52'$;
а) 82°;
а) $82^\circ 40'$.

Часть 2

В1. На рисунке изображена фигура MN, которая называется

_____

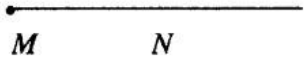

LIVEWORKSHEETS