PRE TEST PRAKTIK PENGUKURAN

1. Sebutkanlah 3 jenis alat ukur panjang:
   a. …… c. …….
   b. …….
2. Mengukur massa suatu benda dengan menggunakan alat ukur ……
3. Stop Watch digunakan untuk mengukur ……
4. Mengukur arus listrik mengunakan alat ukur …….
5. Satuan massa benda adalah …….
6. Satuan kecepatan pelari dalam system international adalah ……..
7. Dalam SI **usaha** yang dilakunkan siswa mempunyai satuan …….
8. Tentukan jumlah angka penting dari hasil pengukuran berikut:
   a. 0,25 cm = …… angka penting
   b. 2,30 kg = ……..... angka penting
9. Konversi satuan berikut:
   a. 2,5 km =……. m c. 10 m/det. = ……km/jam
   b. 352 cm = …… m
10. Tuliskan hasil pengukuran dengaan menggunakan alat berikut:

a. 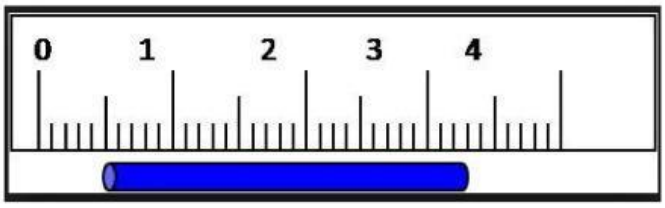

L = …….. ± …… cm

b. 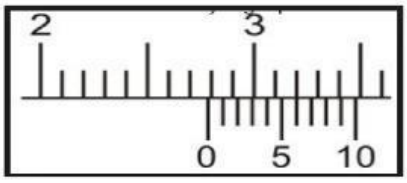

L = …….. ± …… mm

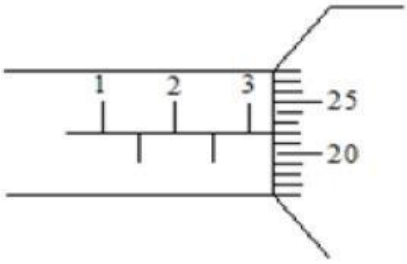

c.

L = …….. ± …… mm

LIVEWORKSHEETS