Nama: _____ Kelas: _____

Kurikulum Merdeka

Lembar Kerja Peserta Didik

MATEMATIKA

MATERI:

PECAHAN DAN OPERASI HITUNGNYA

Matematika Kelas III

LIVEWORKSHEETS

LEMBAR KERJA PESERTA DIDIK (LKPD)

A. KOMPETENSI DASAR

1. Menjelaskan dan menentukan pecahan sederhana serta hubungannya dengan bagian dari keseluruhan.
2. Menyelesaikan masalah yang berkaitan dengan pecahan sederhana dan operasi hitungnya.

B. PETUNJUK PENGERJAAN

1. Bacalah setiap soal dengan teliti.
2. Perhatikan contoh dan gambar yang ada.
3. Isilah kolom jawaban dengan benar!
4. Gunakan tanda titik (.) untuk memisahkan bilangan desimal jika ada.
5. Cocokkan jawaban dengan pilihan yang sesuai.
6. Klik “Finish” untuk melihat nilai hasil pekerjaanmu!

LIVEWORKSHEETS

Kegiatan / Latihan

Isilah dengan pecahan yang tepat!



- Sebuah lingkaran dibagi menjadi 4 bagian, 3 bagian diarsir

Jawaban: .....



- Sebuah persegi dibagi menjadi 6 bagian, 4 bagian diarsir

Jawaban: .....

Pilih jawaban yang paling benar!

- Pecahan yang menunjukkan setengah bagian adalah ...

☐ $\frac{1}{4}$ ☐ $\frac{1}{3}$ ☐ $\frac{1}{2}$

- $\frac{2}{5} + \frac{1}{5} = \ldots$

☐ $\frac{1}{5}$ ☐ $\frac{3}{5}$ ☐ $\frac{2}{10}$

LIVEWORKSHEETS

Kegiatan / Latihan

Menjodohkan Pecahan dengan Gambarnya

1.

$\frac{1}{2}$

2. 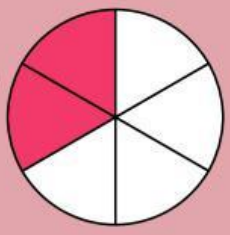

$\frac{3}{4}$

3. 

$\frac{2}{6}$

LIVEWORKSHEETS

Kegiatan / Latihan

Operasi Hitung Pecahan:

1. $\frac{2}{3} \div \frac{4}{2} = \ldots\ldots$

2. $\frac{3}{4} + \frac{2}{3} = \ldots\ldots$

3. $\frac{2}{6} \times \frac{4}{8} = \ldots\ldots$

LIVEWORKSHEETS