INSTITUCIÓN EDUCATIVA MADRE LAURA

Aprobada por Resolución No 8241 de Octubre 23 de 2001

MEDIA TECNICA

APROBADA POR RESOLUCIÒN No 280 de Noviembre 14 de 2003

TALLERES PARA ESTUDIANTES

1. Pega los números que faltan en la secuencia:

0	1			4	
5		7			
10	11		13		15
16		18		20	

2 8 6 12 14

17 9 19 3

LIVEWORKSHEETS

2. Escribe en el cuadrado el símbolo mayor que o menor que:

5 ☐ 7

19 ☐ 6

17 ☐ 20

3 ☐ 6

10 ☐ 7

4 ☐ 2

12 ☐ 9

8 ☐ 16

14 ☐ 13

11 ☐ 18

LIVEWORKSHEETS

3. Señalo si es o no un conjunto unitario.

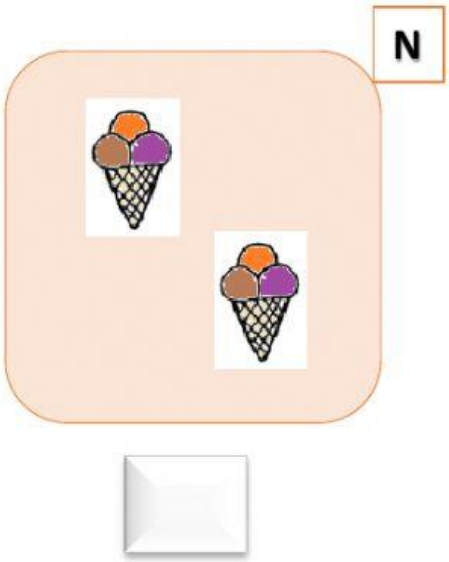

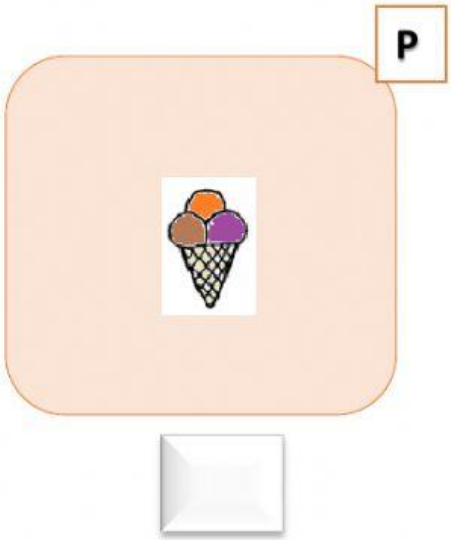

4. Señalo si es o no un conjunto lleno.

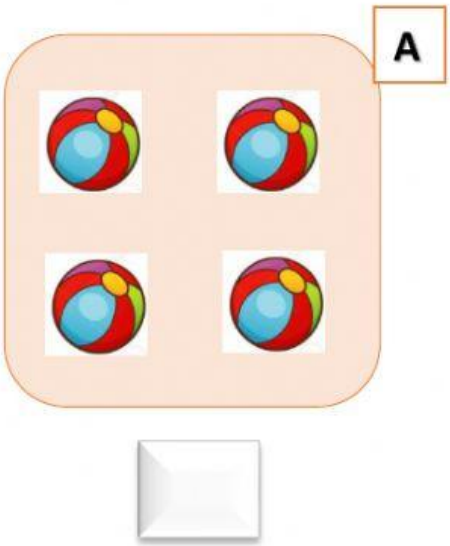

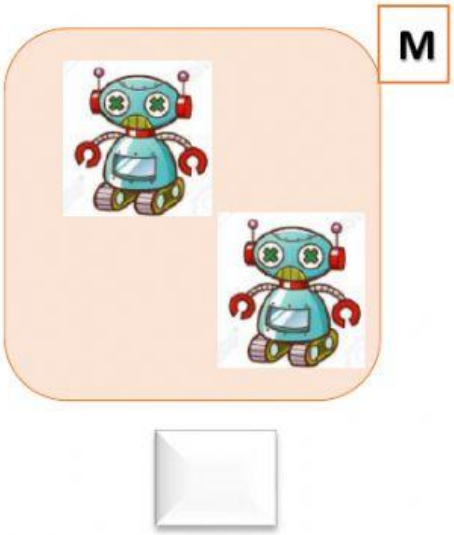

LIVEWORKSHEETS