NHÓM 1

PHIẾU HỌC TẬP

Bài 2. Trong mỗi hình dưới đây có mấy hình tứ giác? Em hãy điền số thích hợp vào ô trống.

a)

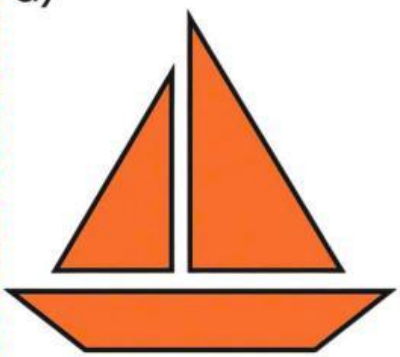

b)



(c)



LIVEWORKSHEETS