LKPD

MATEMATIKA

Pengurukuran Panjang dengan Satuan Baku

Dibuat Oleh : Al Fitri Chahyani (2227220083)

LIVEWORKSHEETS

Simaklah Materi di bawah ini dengan baik, agar bisa menjawab pertanyaan!

LIVEWORKSHEETS

Nama :

Mengukur Benda

Ukur panjang benda di bawah ini dan tuliskan hasilnya pada tabel di sebelahnya.

Pengukuran panjang benda	Satuan baku
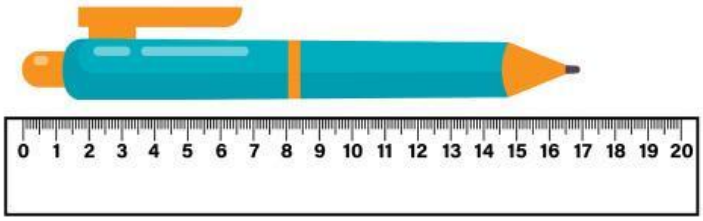	_____ cm
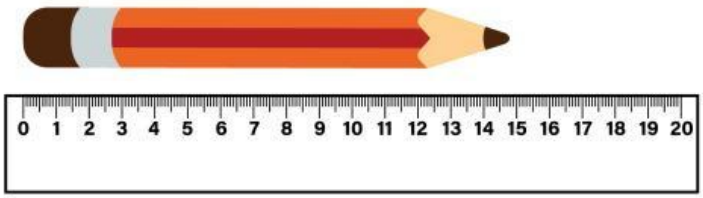	_____ cm
	_____ cm
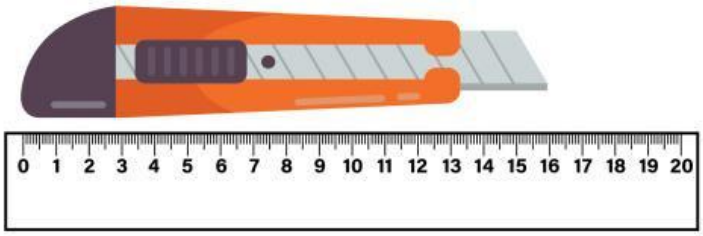	_____ cm
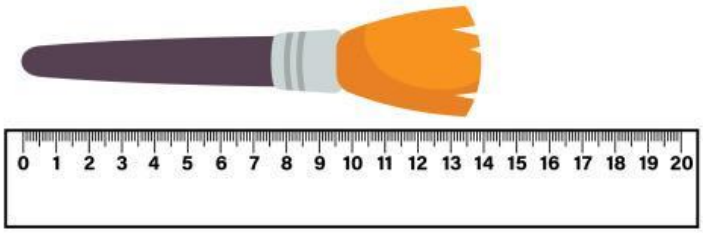	_____ cm

LIVEWORKSHEETS

Tugas 2

Pengukuran Panjang Benda

Berilah tanda centang untuk benda yang tepat diukur denga meteran!

- [ ] Lemari
- [ ] Buku Tulis
- [ ] Pintu
- [ ] Pensil
- [ ] Meja
- [ ] Jendela
- [ ] Papan Tulis
- [ ] Pagar
- [ ] Sendok
- [ ] Dinding

Hubungkan alat ukur yang tepat untuk mengukur benda berikut dengan menarik garis lurus!

- Buku Tulis
- Pintu
- Pensil
- Buku
- Lemari

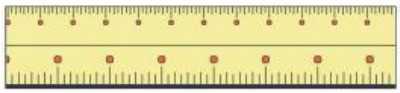

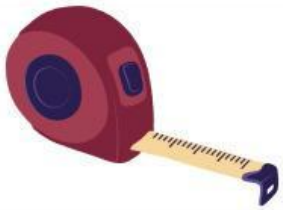

LIVEWORKSHEETS

TUGAS 3

Pengukuran Satuan Baku

Berilah tanda (v) untuk benda-benda yang dapat diukur dengan penggaris.

LIVEWORKSHEETS

TUGAS 4

Hubungan Antar Satuan Baku Panjang

Ubahlah ukuran panjang berikut ke sentimeter atau sebaliknya dengan tepat!

1 m = 100 cm atau 100 cm = 1 m

5 m	=	_____cm	300 cm	=	____m
9 m	=	_____cm	800 cm	=	____m
6 m	=	_____cm	700 cm	=	____m
7 m	=	_____cm	900 cm	=	____m
8 m	=	_____cm	500 cm	=	____m

Lengkapi dan hitunglah ukuran panjang berikut!

1 m 23 cm	=	100 cm + 23 cm	=	____cm
1 m 8 cm	=	____cm + ____cm	=	____cm
2 m 76 cm	=	____cm + ____cm	=	____cm
3 m 48 cm	=	____cm + ____cm	=	____cm

LIVEWORKSHEETS