LKPD

Matematika

Tema:

Pecahan

Nama:

Kelas:

LIVEWORKSHEETS

Identitas

Penyusun	: Maharani Eka Putri
Instansi	: SD Negeri
Tahun Penyusunan	: 2025/2026
Jenjang Sekolah	: SD
Mata Pelajaran	: Matematika
Fase/Kelas:	: A/2 (Dua)
Alokasi Waktu	: 1 kali pertemuan/2x35 menit

Tujuan

1. Mengidentifikasi gambar yang menunjukkan pecahan setengah (½) dari benda utuh.
2. Menunjukkan pecahan setengah dari benda utuh yang dibagi menjadi dua sama besar.
3. Menunjukkan pecahan setengah dari kumpulan benda yang dibagi menjadi dua sama banyak.
4. Memahami bahwa setengah berarti dua bagian sama besar atau dua kelompok dengan jumlah sama banyak.

LIVEWORKSHEETS

Petunjuk Pengerjaan

1. Berdoa sebelum mengerjakan lembaran soal.
2. Isilah identitas seperti nama dan kelas.
3. Bacalah setiap perintah pada LKPD dengan teliti sebelum mengerjakan.
4. Perhatikan gambar-gambar yang tersedia pada setiap bagian.
5. Ikuti setiap perintah yang ada pada setiap kegiatannya.
6. Tuliskan jawaban yang benar pada kolom yang telah disediakan.
7. Jika ada yang tidak dipahami, silahkan bertanya pada guru.
8. Mulailah mengerjakan LKPD ini dengan sungguh-sungguh.
9. Periksa kembali jawabanmu sebelum dikumpulkan.

LIVEWORKSHEETS

Setengah dari Benda Utuh

Tariklah garis sehingga gambar berikut menjadi 2 bagian sama besar.





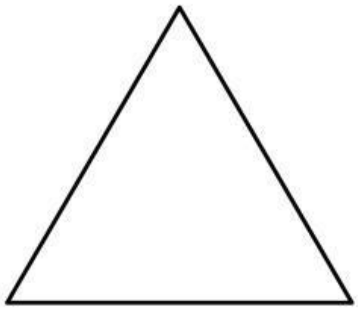



LIVEWORKSHEETS

Mengelompokkan Benda Setengah

Lingkari/Pilihlah setengah dari banyak benda berikut!



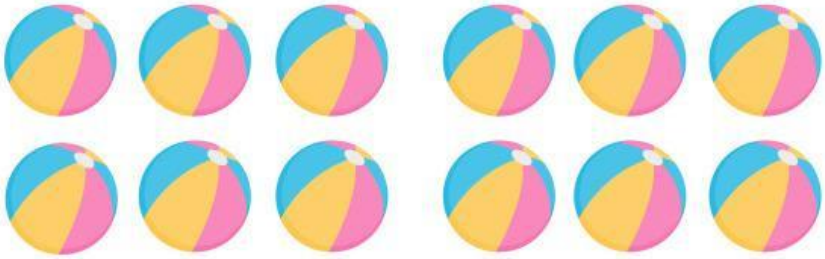





LIVEWORKSHEETS

Mengenal Pecahan Setengah

Berikan tanda cetak (✓) pada gambar yang menunjukkan setengah bagian.

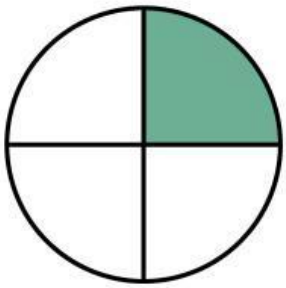

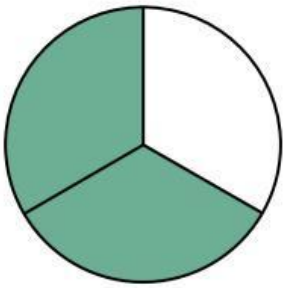

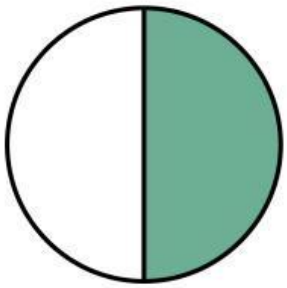

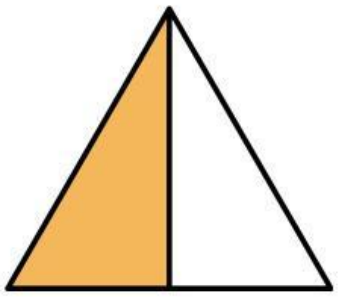

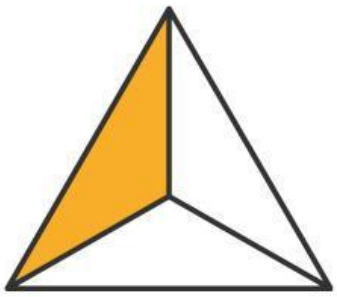

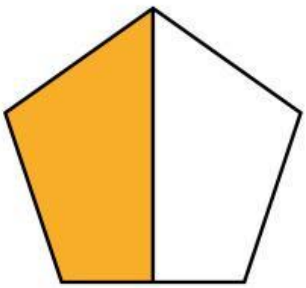





LIVEWORKSHEETS