BANGUN RUANG SISI LENGKUNG
(Luas Selimut Tabung, Kerucut dan Bola)

NAMA

KELAS

A. Perhatikan video di bawah ini

Perhatikan Power Point berikut

B. Pilihlah salah satu jawaban di bawah ini

1. Rumus luas sisi tabung adalah....

   A. $2\pi rt$ B. $\pi rs$ C. $2\pi r\ (r + t)$ D. $\pi r\ (r + s)$

2. Rumus luas sisi kerucut adalah....

   A. $2\pi rt$ B. $\pi rs$ C. $2\pi r\ (r + t)$ D. $\pi r\ (r + s)$

3. Rumus luas sisi bola adalah....

   A. $2\pi rt$ B. $\pi rs$ C. $2\pi r\ (r + t)$ D. $\pi r\ (r + s)$

LIVEWORKSHEETS

4. Pilihlah nama yang sesuai dengan simbl s yang ada pada bangun di bawah ini!

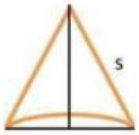


Tinggi

Garis Pelukis

Jari-jari

5. Buatlah garis yang sesuai dengan hasil dari gambar berikut!

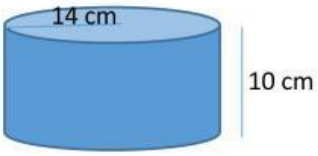


$L = 1.508,2\ cm^2$

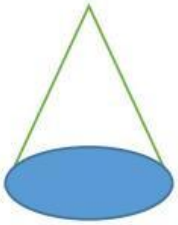

$L = 308\ cm^2$

$L = 616\ cm^2$

6. Tariklah rumus yang sesuai dengan gambar

$L = \frac{1}{2}a.t$



$L = l \times p$

$L = \pi r^2\ cm^2$

LIVEWORKSHEETS

LIVEWORKSHEETS

LIVEWORKSHEETS