المملكة العربية السعودية
وزارة التعليم
الإدارة العامة للتعليم بمنطقة .....

وزارة التعليم
Ministry of Education

المـــادة / مهارات رقمية
الصـــف / السادس
اسم الطالب /.....

ورقة عمل درس المخططات البيانية

السؤال الأول: ضع صح أو خطأ أمام الجمل التالية:

١- نستطيع بواسطة المخططات البيانية تمثيل البيانات بشكل رسومي يسهل تحليله وفهمه. ( )

٢- للمخططات البيانية أنواع كثيرة منها الدائري والخطي والعمودي. ( )

٣- ندرج المخطط من تبويب (إدراج) ومن مجموعة (المخططات). ( )

٤- في الإكسل اتجاه الصفحة دائما عمودي ولا نستطيع تغييره للاتجاه الأفقي. ( )

٥- لا يوجد في الإكسل خاصية طباعة الصفحات. ( )

٦- تساعد إضافة (تسميات البيانات) في جعل البيانات أكثر وضوحا وإفادة وسهولة في الفهم. ( )

السؤال الثاني: صل كل مخطط مع صورته بالأرقام:

١- مخطط خطي.

٢- مخطط دائري مجوف.

٣- مخطط عمودي.

٤- مخطط دائري.

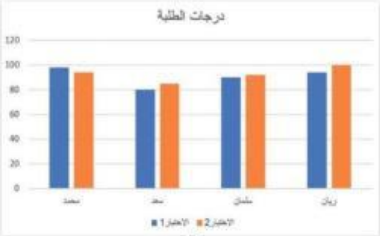

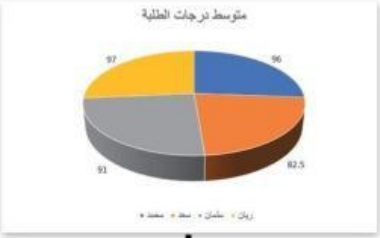



LIVEWORKSHEETS