Lembar Kerja Peserta Didik

MATEMATIKA

Kekongruenan dan Kesebangunan

Nama: _____

Kelas: _____

SMP/MTs Kelas IX

Tahun Ajar 2025/2026

LIVEWORKSHEETS

MARI MENONTON!

Sebelum masuk ke pertanyaan, simak terlebih dahulu video berikut ini!

Bagaimana? Apakah pemahamanmu bertambah setelah menonton video pembelajaran tersebut?

Nah, sekarang saatnya kamu menerapkan apa yang sudah kamu lihat di video! Yuk, kita mulai mengeksplorasi gambar dan menjawab beberapa pertanyaan sederhana.

LIVEWORKSHEETS

AYO BERPIKIR!

- **Amati serta analisis gambar dibawah ini untuk menjawab pertanyaan 1, 2, dan 3!**

Pintu dan jendela pada gambar dibawah adalah dua benda yang sebangun

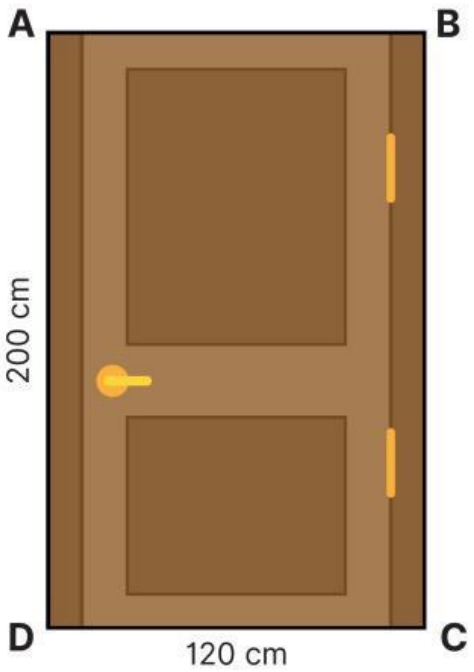

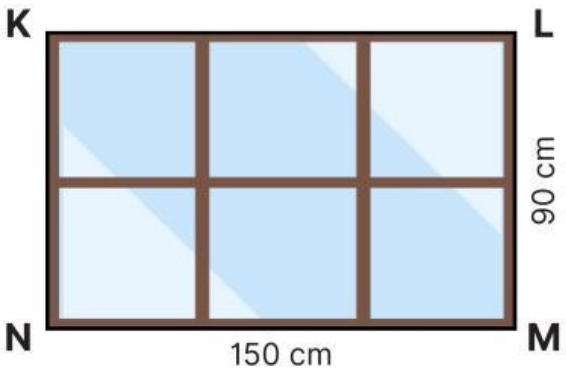

Pertanyaan

1. Tuliskan pasangan sisi yang bersesuaian dari kedua benda tersebut!

   Jawab:

LIVEWORKSHEETS

AYO BERPIKIR!

2. Berapa perbandingan sisi yang bersesuaian dari kedua benda tersebut?

   Jawab:

3. Tuliskan pasangan sudut yang bersesuaian dari kedua benda tersebut!

   Jawab:

- **Amati serta analisis gambar dibawah ini untuk menjawab pertanyaan 4 dan 5!**

Pintu dan jendela pada gambar dibawah adalah dua benda yang kongruen

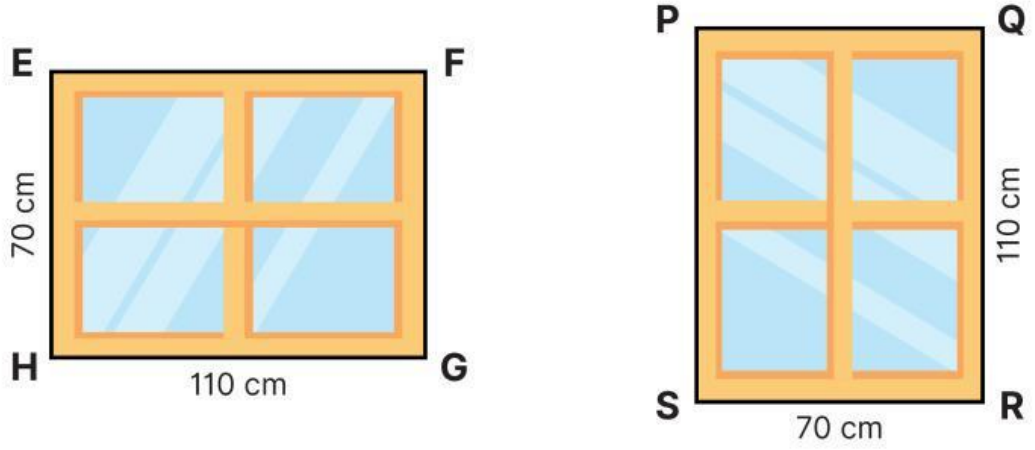

LIVEWORKSHEETS

AYO BERPIKIR!

Pertanyaan

4. Tuliskan pasangan sisi yang bersesuaian dari kedua benda tersebut!

   Jawab:

5. Tuliskan pasangan sudut yang bersesuaian dari kedua benda tersebut!

   Jawab:

LIVEWORKSHEETS