Lembar Kerja Peserta Didik

LKPD

Matematika

Tema:

Pecahan

Nama:

Presensi:

Kelas IV

LIVEWORKSHEETS

UNNES
UNIVERSITAS NEGERI SEMARANG

Satuan Pendidikan : SD Negeri Karangsumber 02
Kelas/Semester : IV/2
Mata Pelajaran : Matematika
Bab : 2 Pecahan
Topik :

1. Menuliskan pecahan dari gambar (Representasi pecahan sebagai bagian dari keseluruhan)
2. Mencocokkan gambar dengan pecahan biasa
3. Membandingkan pecahan menggunakan tanda <, =, >
4. Mengurutkan pecahan dari terkecil ke terbesar dan sebaliknya
5. Mengubah pecahan biasa menjadi bilangan desimal

Hari/Tanggal : .....

LIVEWORKSHEETS

TujuanPembelajaran

1. Setelah mengerjakan LKPD ini, peserta didik diharapkan dapat:
2. Menuliskan pecahan sesuai dengan gambar yang diberikan.
3. Menghubungkan pecahan dengan gambar yang mewakilinya.
4. Membandingkan dua pecahan menggunakan tanda <, >, atau =.
5. Mengurutkan pecahan dari yang terkecil hingga terbesar atau sebaliknya.
6. Mengubah pecahan biasa menjadi bentuk desimal dengan tepat.

Petunjuk Pengerjaan

1. Awali dengan berdoa sebelum mengerjakan.
2. Tuliskan nama dan kelas pada tempat yang sudah disediakan.
3. Bacalah tujuan pembelajaran dengan cermat.
4. Perhatikan petunjuk di setiap halaman sebelum mengerjakan soal.
5. Kerjakan soal sesuai urutan halaman:
6. Periksa kembali jawabanmu sebelum dikumpulkan.
7. Akhiri dengan berdoa setelah selesai mengerjakan.

LIVEWORKSHEETS

Menulis pecahan

Tulislah pecahan yang sesuai dengan bagian yang diwarnai pada setiap gambar di bawah ini!

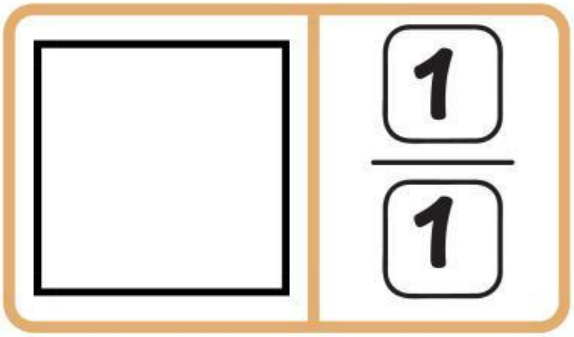

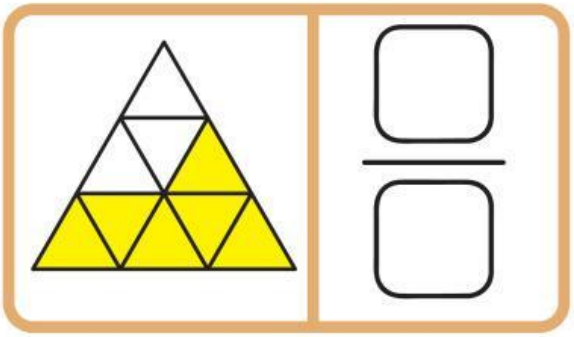

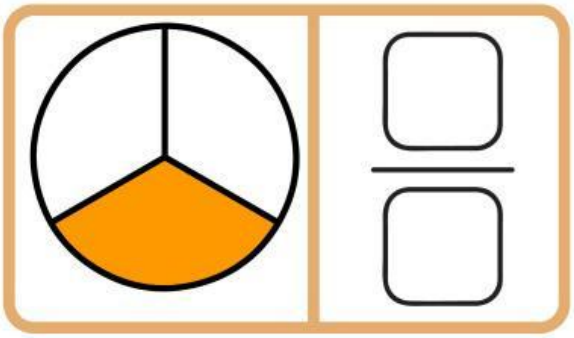

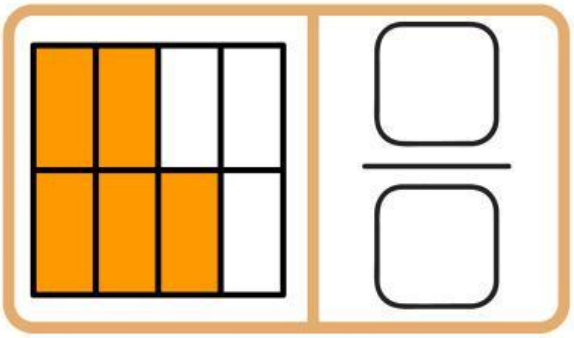

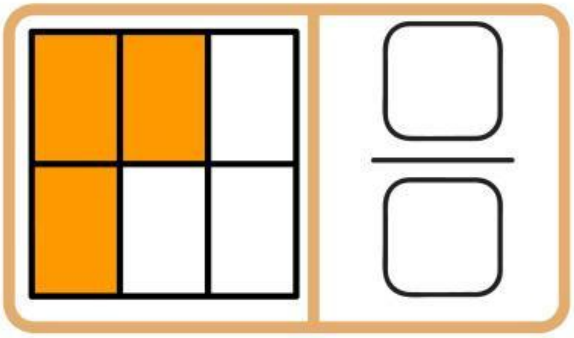

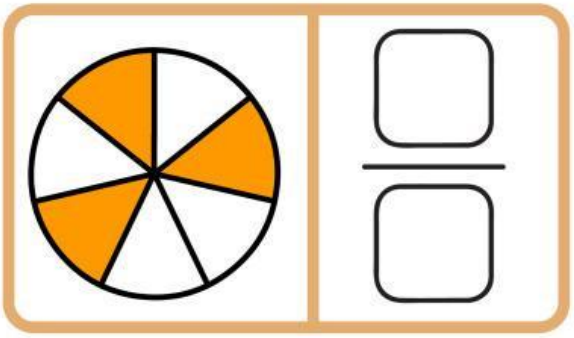

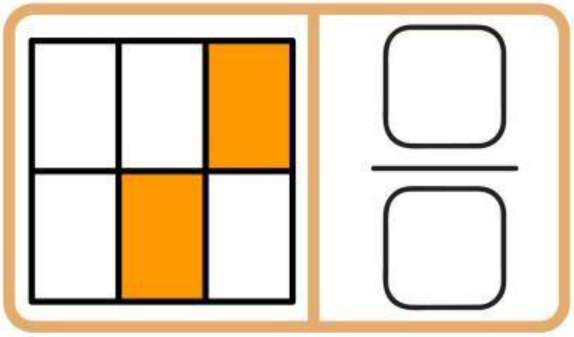

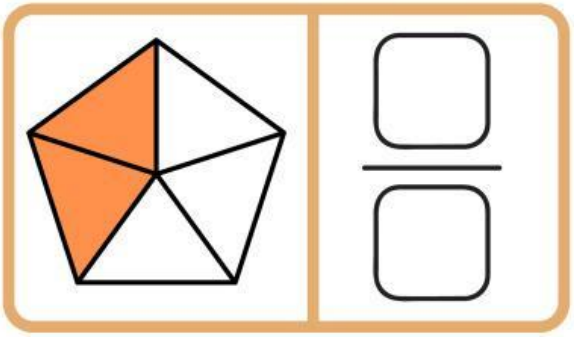

LIVEWORKSHEETS

Pecahan Biasa

Pasangkan gambar sisa potongan pizza dengan nilai pecahan yang tepat.







$\frac{1}{1}$

$\frac{3}{4}$

$\frac{1}{2}$

$\frac{1}{8}$

$\frac{1}{4}$

LIVEWORKSHEETS

Membandingkan Bilangan Pecahan

Bandingkan bilangan pecahan berikut dengan mengisi tanda “<, =, >” pada lingkaran kosong di bawah ini!

$\frac{1}{2}$	>	$\frac{1}{3}$	$\frac{1}{2}$		$\frac{2}{4}$
$\frac{1}{4}$		$\frac{1}{3}$	$\frac{5}{6}$		$\frac{6}{5}$
$\frac{1}{3}$		$\frac{2}{6}$	$\frac{1}{7}$		$\frac{1}{8}$
$\frac{3}{4}$		$\frac{2}{3}$	$\frac{3}{8}$		$\frac{2}{8}$
$\frac{2}{3}$		$\frac{3}{4}$	$\frac{2}{3}$		$\frac{3}{2}$

LIVEWORKSHEETS

Mengurutkan Pecahan

Urutkan bilangan pecahan di bawah ini dari yang terkecil!

$\frac{2}{3}, \frac{1}{3}, \frac{4}{3}, \frac{5}{3}, \frac{3}{3}$ → ☐

$\frac{2}{3}, \frac{1}{2}, \frac{3}{4}, \frac{4}{5}, \frac{5}{6}$ → ☐

$\frac{3}{4}, \frac{2}{5}, \frac{1}{2}, \frac{3}{5}, \frac{4}{5}$ → ☐

Urutkan bilangan pecahan di bawah ini dari yang terbesar!

$\frac{1}{2}, \frac{1}{3}, \frac{2}{5}, \frac{3}{4}, \frac{3}{5}$ → ☐

$\frac{4}{8}, \frac{5}{6}, \frac{3}{4}, \frac{4}{5}, \frac{2}{3}$ → ☐

$\frac{7}{8}, \frac{5}{6}, \frac{3}{4}, \frac{2}{3}, \frac{4}{5}$ → ☐

LIVEWORKSHEETS

Mengubah Pecahan Menjadi Bilangan Desimal

Ubahlah pecahan berikut menjadi bilangan desimal dengan mengisi pada kotak kosong dengan tepat!

$\frac{1}{2} = \square$

$\frac{2}{5} = \square$

$\frac{3}{6} = \square$

$\frac{3}{4} = \square$

$\frac{1}{4} = \square$

$\frac{1}{3} = \square$

$\frac{2}{6} = \square$

$\frac{4}{7} = \square$

$\frac{3}{9} = \square$

$\frac{5}{9} = \square$

LIVEWORKSHEETS

UNNES
UNIVERSITAS NEGERI SEMARANG

Nama	: Bibit Puji Lestari
Nim	: 2401050019
Rombel	: A
Angkatan	: 2024
Mata Kuliah	: Pengembangan Kurikulum
Dosen Pengampu	: Ika Ratnaningrum, S.Pd., M.Pd.
Link E-LKPD	:

LIVEWORKSHEETS