Nama: ..... Kelas: .....

ORGANEL SEL TUMBUHAN DAN FUNGSINYA

Cocokkanlah gambar organel sel tumbuhan dan fungsinya dengan cara menarik garis!

Tempat terjadinya proses sintesis protein	○	○
Sebagai tempat penyimpanan utama ion anorganik pada tumbuhan.	○	○
Mengolah serta melakukan modifikasi protein	○	○ 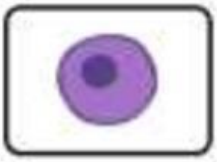
Tempat terjadinya proses fotosintesis.	○	○
Tempat terjadinya respirasi sel	○	○
Sebagai pengatur aktivitas sel	○	○ 
Berperan dalam sintesis dan transportasi lemak	○	○

LIVEWORKSHEETS

NAMA : _____ KELAS : _____

PERBEDAAN SEL HEWAN DAN SEL TUMBUHAN

Perhatikan gambar sel hewan dan sel tumbuhan berikut ini!

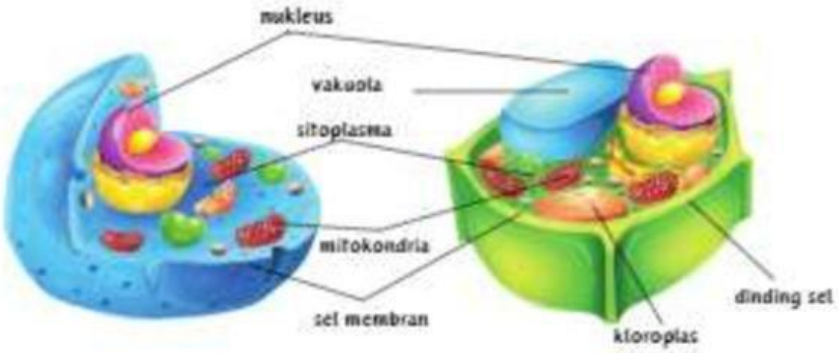

Berdasarkan gambar di atas, kira-kira apa yang membedakan sel hewan dengan sel tumbuhan? Coba kalian isi tabel di bawah ini!

STRUKTUR	SEL HEWAN	SEL TUMBUHAN	KAJIAN LITERATUR
Dinding Sel			
Sel Membran			
Nukleus			
Mitokondria			
Vakuola			
Kloroplas			
Sitoplasma			

LIVEWORKSHEETS