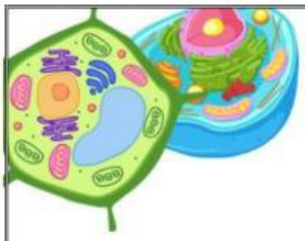

الدرس الأول:الخلايـــــا

	اختاري الإجابة الصحيحة فيما يأتي :							
١	أصغـر وحدة في بناء المخلوقات الحية :							
	أ	الخلية	ب	المجهر	جـ	النواة	د	البلاستيدات الخضراء
٢	أي مما يلي يوجد في الخلية النباتية ولا يوجد في الخلية الحيوانية ☹(اجابتان صحيحة)							
	أ	النواة	ب	الميتوكندريا	جـ	الجدار الخلوي	د	البلاستيدات الخضراء
٣	انتقال الصفات الوراثية من الأباء الى الأبناء:							
	أ	الوراثة	ب	النمو	جـ	الجين	د	التكاثر
٤	أي مما يلي يوجد في خلايا جسمك :							
	أ	جدار خلوي	ب	بلاستيدات خضراء	جـ	كلوروفيل	د	السيتوبلازم
٥	تركيب الخلية الذي يساعدها على خزن الماء والغذاء والفضلات:							
	أ	الجدار خلوي	ب	النواة	جـ	الفجوة العصارية	د	السيتوبلازم
٦	أي الوسائل التالية يستعملها العلماء لدراسة تركيب الخلايا والكائنات الدقيقة :							
	أ		ب		جـ		د	
٧	ما الجزء الذي يوجد داخل النواة ويتحكم في نمو الخلية النباتية والحيوانية :							
	أ	الجدار خلوي	ب	الكروموسومات	جـ	الميتوكندريا	د	البلاستيدات
٨	أي التراكيب الخلوية التالية يمكن كتابته محل علامة الاستفهام في المخطط							
	أ	فجوة صغيرة	ب	فجوة كبيرة	جـ	النواة	د	الكلوروفيل
٩	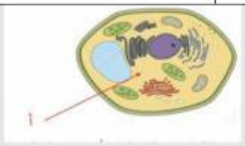 يوضح الشكل خلية نباتية. أي مما يلي يشير اليه التركيب (أ)							
	أ	جدار الخلية	ب	السيتوبلازم	جـ	الميتوكندريا	د	الفجوة
١٠	أي من الصفات التالية تعد صفة مكتسبه(غير موروثة):							
	أ	الرسم	ب	لون العين	جـ	لون البشرة	د	الغمازة

LIVEWORKSHEETS

مجموعة من الخلايا المتماثلة تجتمع مع لتؤدي وظيفة محددة								
١١	أ	النسيج	ب	الخلية	جـ	العضو	د	الجهاز
١٢- مجموعة من الانسجة المتماثلة تجتمع مع لتؤدي وظيفة محددة								
	أ	النسيج	ب	الخلية	جـ	العضو	د	الجهاز
١٣-مجموعة من الأعضاء تجتمع مع لتؤدي وظيفة محددة								
	أ	النسيج	ب	الخلية	جـ	العضو	د	الجهاز

عضو | جسم المخلوق | نسيج | خلية | جهاز

س٢: اكتبي مستويات التنظيم للخلايا في اجسام المخلوقات الحية ؟

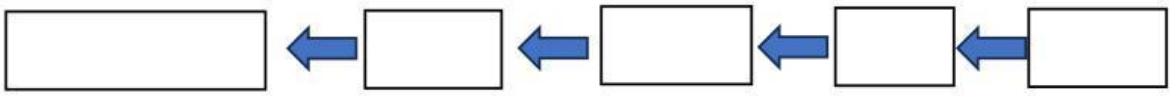

LIVEWORKSHEETS