RECTA NUMÉRICA

Para representar números en la recta numérica, se debe establecer la distancia entre cada uno y respetarla en toda su extensión.

1. Escribí el número que corresponde

Esta serie es de **1 en 1**

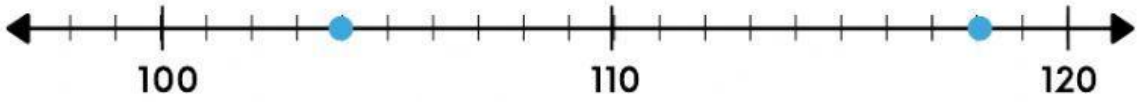

Esta serie es de **1 en 1**

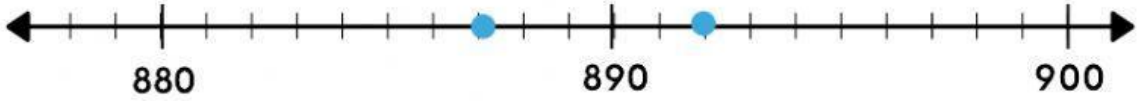

Esta serie es de **10 en 10**

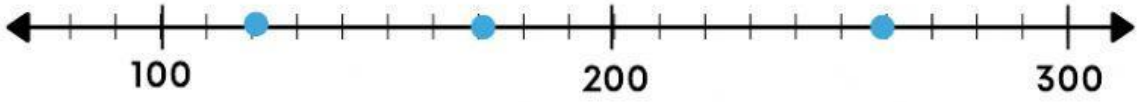

1. Marcá en la recta numérica donde ubicarías los siguientes números.

Esta serie es de **1 en 1**

597

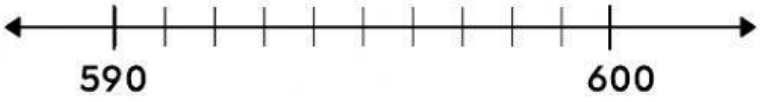

Esta serie es de **1 en 1**

344

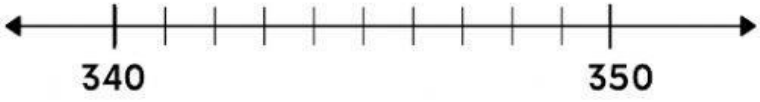

Esta serie es de **10 en 10**

480

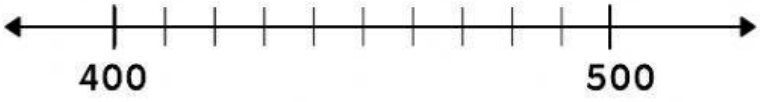

LIVEWORKSHEETS