ΔΗΜΟΤΙΚΟ ΣΧΟΛΕΙΟ .....

Όνομα: _____ Τάξη: _____

Στρογγυλοποίηση δεκαδικών στον πλησιέστερο ακέραιο

Τοποθέτησε το κάθε δεκαδικό αριθμό στην αριθμητική γραμμή. Με τη βοήθεια της αριθμητικής γραμμής στρογγυλοποίησε τον αριθμό στον πλησιέστερο ακέραιο.

Παράδειγμα:

4,6 στρογγυλοποιείται στο .....

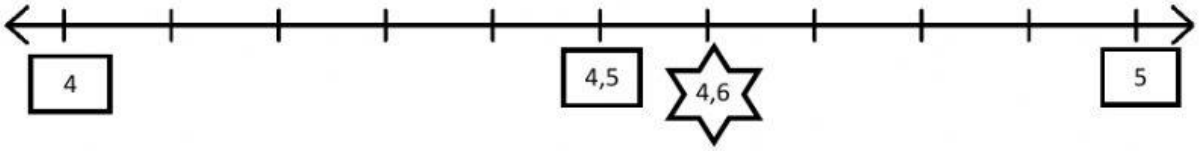

Το 4,6 στρογγυλοποιείται σε ακέραιο στο 5.

3,1

3,1 στρογγυλοποιείται στο .....

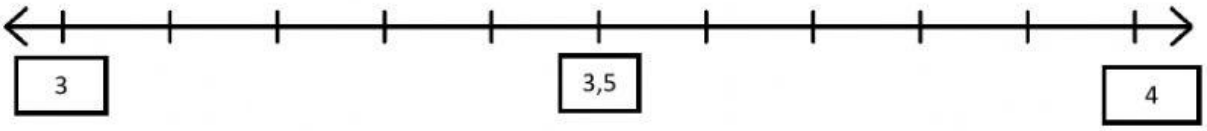

8,2

8,2 στρογγυλοποιείται στο .....

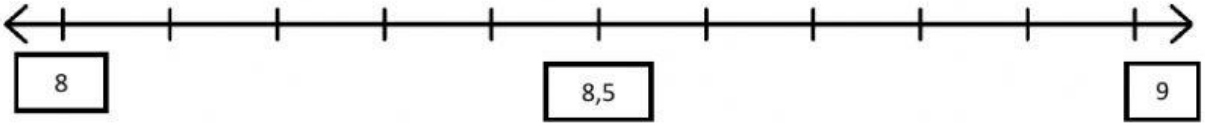

7,9

7,9 στρογγυλοποιείται στο .....

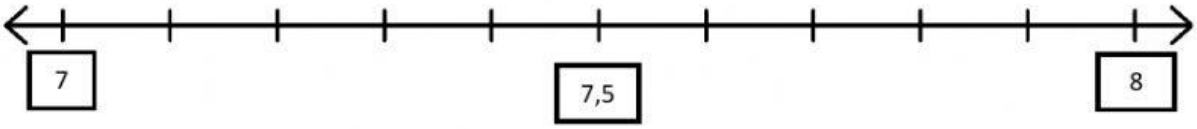

1,8

1,8 στρογγυλοποιείται στο .....

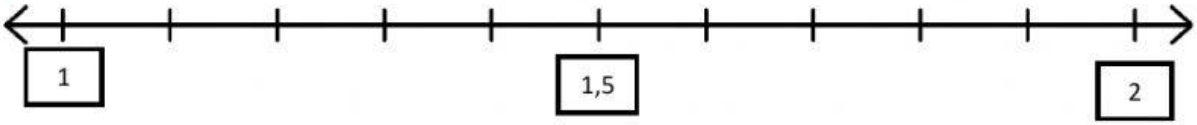

LIVEWORKSHEETS

55,5 στρογγυλοποιείται στο .....

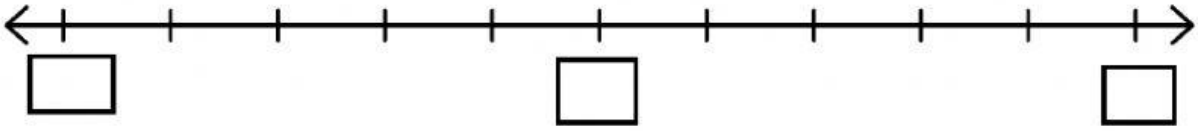

99,7 στρογγυλοποιείται στο .....

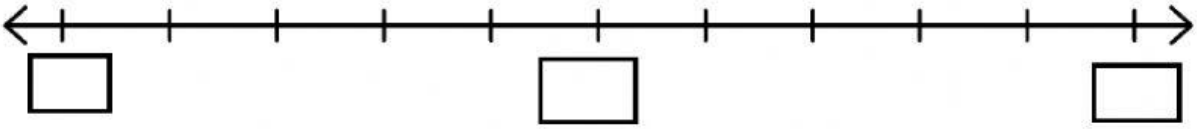

50,9 στρογγυλοποιείται στο .....

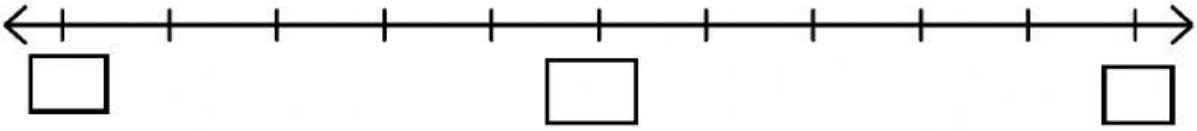

132,5 στρογγυλοποιείται στο .....

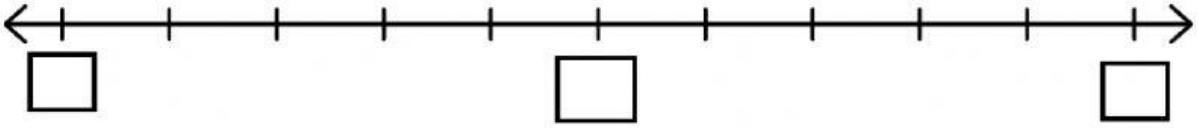

2. Ποιοι από τους ακόλουθους δεκαδικούς στρογγυλοποιούνται στο 1;

0,1	0,2	0,3	0,4	0,5	0.6	0,7	0,8	0,9
1.1	1,2	1,3	1,4	1,5	1,6	1,7	1,8	1,9

3. Ποιοι από τους ακόλουθους δεκαδικούς στρογγυλοποιούνται στο 14;

13,1	13,2	13,3	13,4	13,5	13,6	13,7	13,8	13,9
14,1	14,2	14,3	14,4	14,5	14,6	14,7	14,8	14,9

4. Στρογγυλοποιώ τους ακόλουθους δεκαδικούς στον πλησιέστερο ακέραιο:

8,2 ☐ 4,3 ☐ 8,6 ☐

9,7 ☐ 2,8 ☐ 5,7 ☐

LIVEWORKSHEETS