ฝึกทำก่อนเข้าสู่บทเรียน

คำชี้แจง : ให้นักเรียนลากคำตอบจากข้างล่างมาเติมในช่องว่างให้ถูกต้อง

รูปเรขาคณิต	ความยาวรอบรูป	พื้นที่
รูปสามเหลี่ยม 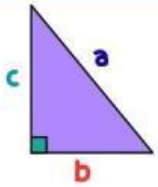		
รูปสี่เหลี่ยมจัตุรัส 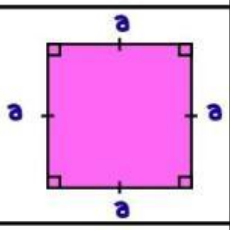		
รูปสี่เหลี่ยมผืนผ้า 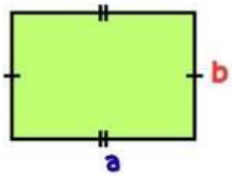		

ปริซึม	ปริมาตร
ปริซึมสี่เหลี่ยม 	

กว้าง x ยาว

a + a + a + a = 4a

a + b + c

ด้าน x ด้าน

a + b + a + b = 2(a+b)

$\frac{1}{2}$ x พื้นที่ฐาน x สูง

พื้นที่ฐาน x ความสูง

LIVEWORKSHEETS