Kurikulum Merdeka

LKPD

Lembar Kerja Peserta Didik

Topik : Bagaimana Wujud Benda Berubah

Nama : _____

Kelas : _____

LIVEWORKSHEETS

CAPAIAN PEMBELAJARAN

Peserta didik mampu memahami dan menjelaskan berbagai jenis perubahan wujud benda melalui pengamatan, menyebutkan contoh-contohnya dalam kehidupan sehari-hari, serta menganalisis proses dan bentuk perubahan.

TUJUAN PEMBELAJARAN

- **Peserta didik dapat menyebutkan berbagai jenis perubahan wujud benda yang terjadi.**
- **Peserta didik dapat memberikan contoh berbagai macam perubahan wujud benda.**
- **Peserta didik dapat menjelaskan bagaimana perubahan wujud benda terjadi.**
- **Peserta didik dapat menganalisis bentuk-bentuk perubahan wujud benda.**

LIVEWORKSHEETS

PETUNJUK MENGERJAKAN LKPD

- **Berdoalah terlebih dahulu sebelum memulai mengerjakan soal.**
- **Isi identitas diri secara lengkap pada kolom yang tersedia.**
- **Baca instruksi setiap jenis soal dengan seksama, karena bentuk soal bisa berbeda-beda.**
- **Kerjakan soal secara urut dan sesuai dengan petunjuk yang ada pada setiap bagian.**
- **Jika mengalami kesulitan atau tidak memahami pertanyaan, jangan ragu bertanya kepada guru.**
- **Pastikan jawaban sudah lengkap dan benar sebelum menekan tombol "Finish" atau "Kirim" pada akhir lembar kerja.**
- **Jaga kejujuran saat mengerjakan.**
- **Nikmati proses belajar dan tetap semangat!**

SELAMAT MENGERJAKAN!

LIVEWORKSHEETS

Lembar Kerja Peserta Didik

Pilihan Berganda

Mengenal Wujud Benda di Sekitar Kita



1. Air minum termasuk benda dengan wujud...

A. Padat **C. Gas**
B. Cair **D. Uap**

2. Contoh benda gas yang ada di rumah adalah...

A. Udara **C. Es Batu**
B. Meja **D. Minyak**

3. Uap air yang naik ke langit dan berubah menjadi awan termasuk proses...

A. Mengembun **C. Menyublim**
B. Menguap **D. Mencair**

4. Es batu dimasukkan ke dalam gelas berisi air panas. Maka es akan...

A. Menguap **C. Mengembun**
B. Mencair **D. Membeku**

5. Air yang dimasukkan ke dalam freezer akan berubah menjadi benda...

A. Cair **C. Padat**
B. Gas **D. Uap**

LIVEWORKSHEETS

Lembar Kerja Peserta Didik

Isian Singkat

- Tulis perubahan wujud benda yang terjadi pada bagan berikut.

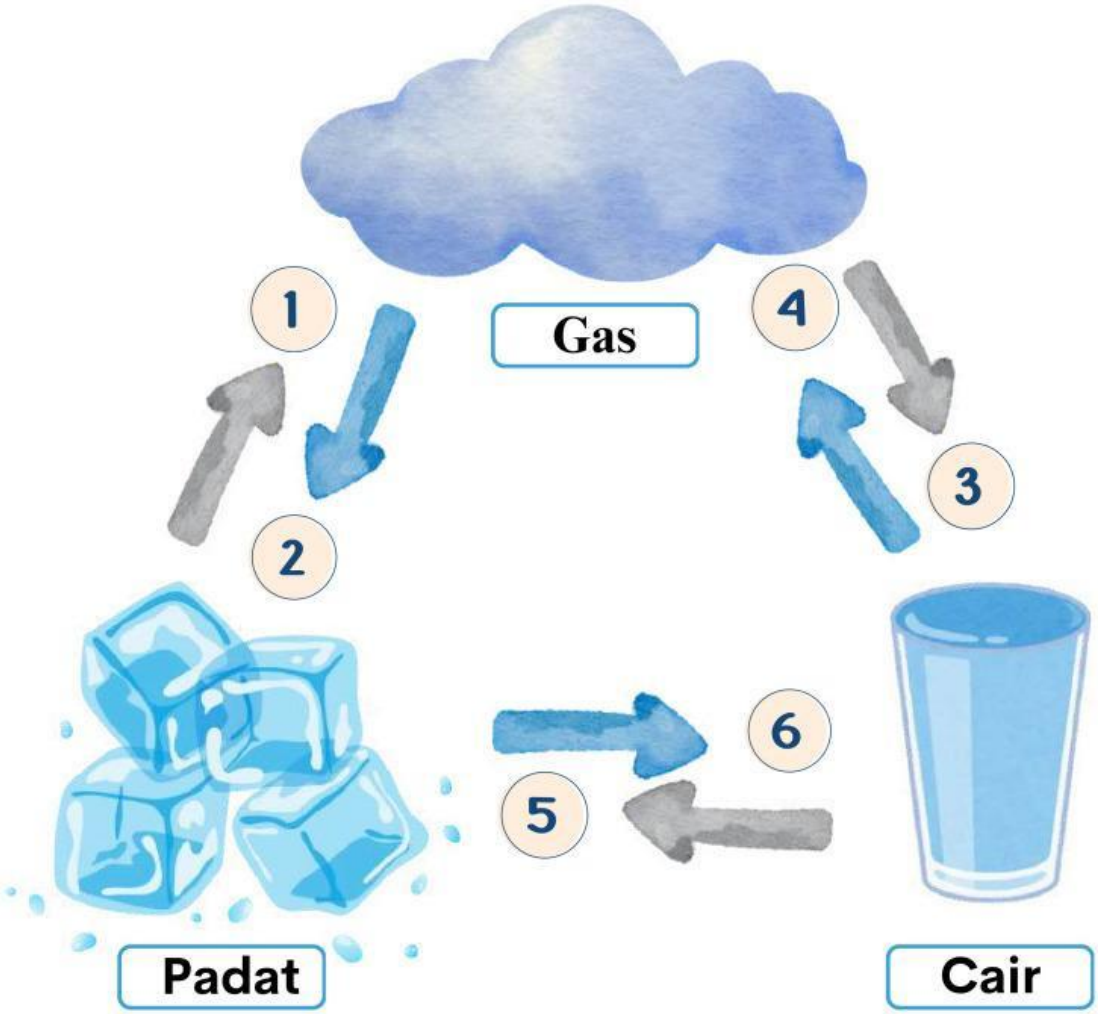

1 _____

2 _____

3 _____

4 _____

5 _____

6 _____

LIVEWORKSHEETS

Lembar Kerja Peserta Didik

MENCARI KATA

Temukan Kata-Kata yang terkait dengan Perubahan Wujud Benda!

- MENGUAP
- MENCAIR
- MENYUBLIM
- MENGEMBUN
- MEMBEKU
- MENGKRISTAL

M	B	X	M	E	N	Y	U	B	L	I	M
E	E	Q	S	E	C	E	C	R	E	A	E
M	A	T	M	E	N	G	U	A	P	W	N
B	C	U	A	I	G	C	G	G	L	E	G
E	H	S	U	N	G	L	A	S	S	E	E
K	R	S	U	N	S	C	R	I	E	N	M
U	S	A	N	D	C	A	S	T	R	E	B
J	T	L	B	E	A	C	H	B	A	L	U
M	E	N	G	K	R	I	S	T	A	L	N

LIVEWORKSHEETS

Lembar Kerja Peserta Didik

- Bacalah setiap pernyataan berikut dengan cermat.
- Pilih **Benar** jika kamu setuju dengan pernyataan itu, atau pilih **Salah** jika menurutmu itu tidak sesuai.

1. **Air yang dipanaskan terus menerus akan membeku.**

   Benar

   Salah

2. **Embun terbentuk dari uap air yang mengembun saat suhu dingin.**

   Benar

   Salah

3. **Air yang dimasukkan ke dalam freezer akan berubah menjadi gas.**

   Benar

   Salah

4. **Membeku adalah perubahan wujud dari cair menjadi padat.**

   Benar

   Salah

5. **Menyublim terjadi ketika benda cair berubah langsung menjadi gas.**

   Benar

   Salah

LIVEWORKSHEETS

Lembar Kerja Peserta Didik

Kenali Wujud Benda

- Kelompokkan benda-benda berikut ini sesuai dengan jenis wujudnya!

Padat

1. _____
2. _____
3. _____

mobil

hujan

air

Cair

1. _____
2. _____
3. _____

jus jeruk

uap air

asap

Gas

1. _____
2. _____
3. _____

gunting

durian

asap mobil

LIVEWORKSHEETS

Lembar Kerja Peserta Didik

- **Seret jawaban yang tersedia sesuai dengan kolom pertanyaan yang benar!**

1.	Perubahan air mendidih menjadi uap disebut...	Jawab :
2.	Gula pasir yang terbentuk dari cairan tebu setelah dipanaskan dan didinginkan disebut proses apa?	Jawab :
3.	Asap kendaraan yang keluar dari knalpot merupakan benda dengan wujud apa?	Jawab :
4.	Apa yang terjadi pada es batu ketika dimasukkan ke dalam minuman panas?	Jawab :
5.	Jika kamu menyentuh batu di halaman rumah, batu itu termasuk wujud apa?	Jawab :

Mencair **Gas**

Padat **Menguap**

Mengkristal

LIVEWORKSHEETS

Lembar Kerja Peserta Didik

- Hubungkan gambar perubahan wujud benda di bawah ini dengan namanya!

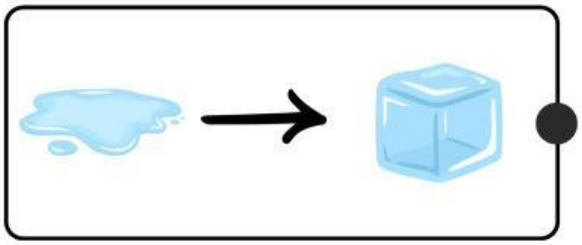

Mengembun

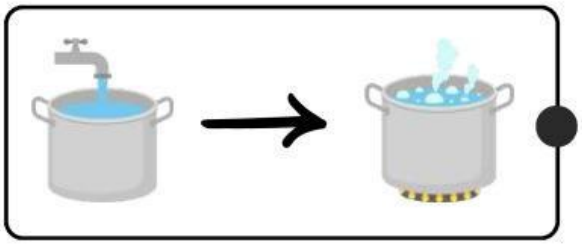

Mencair

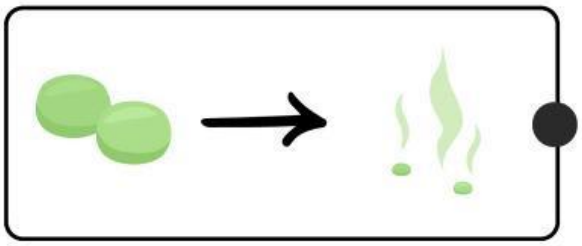

Membeku

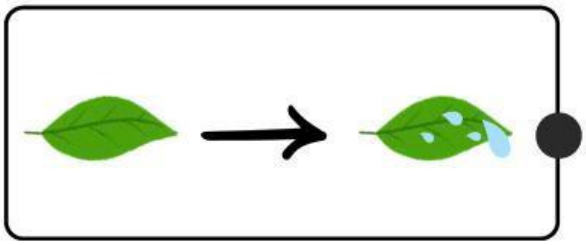

Menyublim

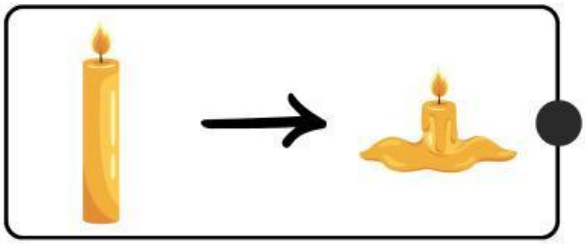

Menguap

LIVEWORKSHEETS