مدرسة خديجة الكبرى
للتعليم الأساسي (٥-٩)

نشاط ختامي

١) صل كلّ مُربَّع بالقيمة الصحيحة

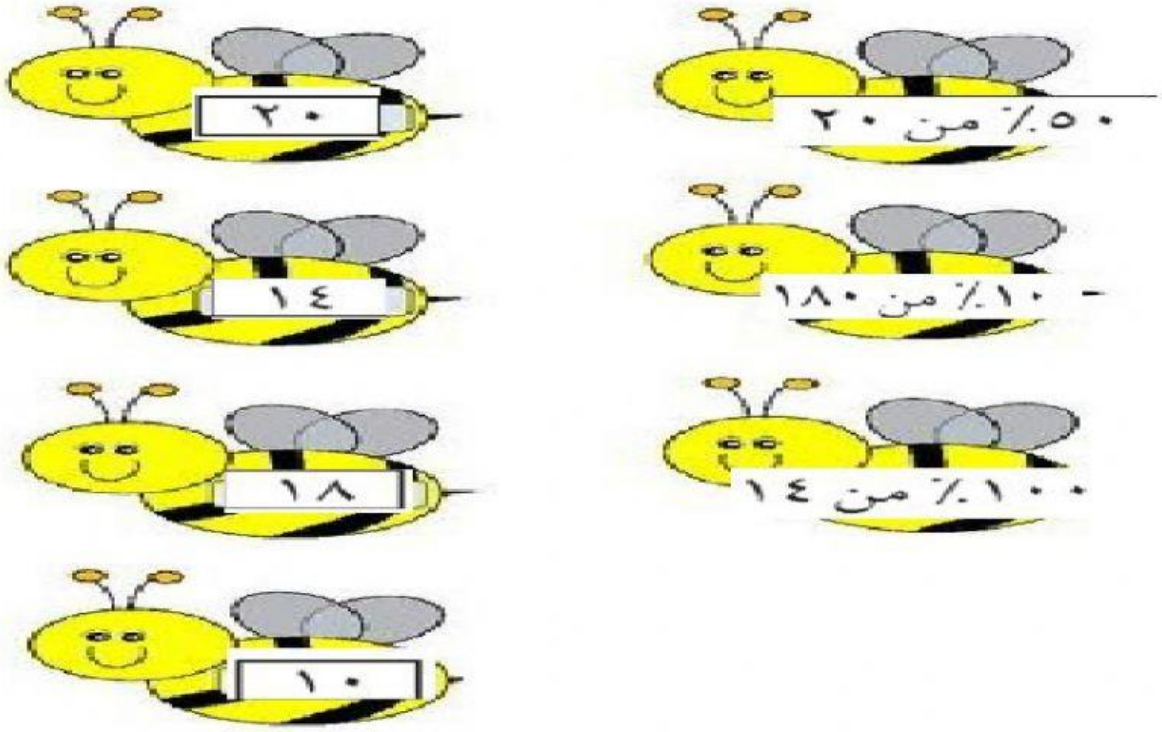

السؤال الثاني :-

لدى عمر ٢٠٠ ريال

أنفق ٣٠ ٪ مما لديه لشراء دراجة

احسب ثمن الدراجة.

٣٠	٦٠	٩٠	٢٠٠

LIVEWORKSHEETS

السؤال الثالث

حصل ٦٠ % من طلاب الخامس على الدرجة النهائية في مادة الرياضيات أختاري نسبة الطلاب الذين لم يحصلو على الدرجة النهائية

٢٠ % ٣٠ % ٤٠ % ٦٠ %

السؤال الرابع

سعر المعطف ٤٨ ريال في موسم التخفيضات خُفّض سعر المعطف بنسبة ٢٥٪ احسب السعر الجديد للمعطف بعد التخفيض .(تجريبي)

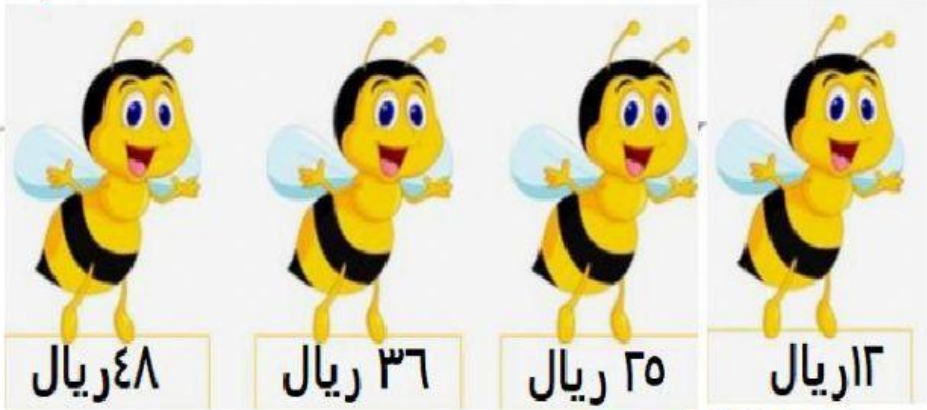



تلميذتي المبدعة

((أجابتك دليل تفوقك))

معلمتك أمل الروشدية

LIVEWORKSHEETS