# Вертикальні кути

1. Один з вертикальних кутів дорівнює $30^0$. Знайдіть другий кут.

$60^0$ | $30^0$ | $150^0$ | $15^0$

2. Знайди градусну міру кута y.

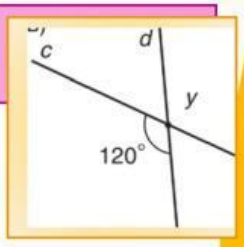


$60^0$ | $120^0$ | $30^0$

3. Знайди градусну міру кута x.

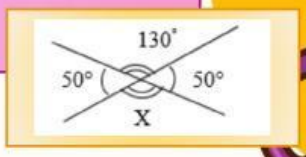


$180^0$ | $50^0$ | $130^0$

4. Знайди градусну міру кута z.

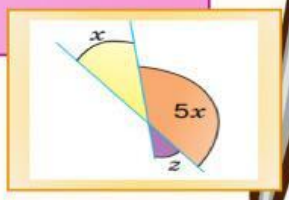


$30^0$ | $60^0$ | $120^0$

5. При перетині двох прямих утворилося чотири кути. Чи можуть деякі два із них дорівнювати $5^0$ і $175^0$ ?

так | ні

6. При перетині двох прямих утворилося чотири кути. Чи можуть деякі два із них дорівнювати $3^0$ і $3^0$ ?

так | ні

LIVEWORKSHEETS