LKPD

LUAS PERSEGI DAN PERSEGI PANJANG

Perhatikan video berikut ini!

Perhatikan materi berikut ini!

MATERI

MATERI

LIVEWORKSHEETS

LKPD

LUAS PERSEGI DANPERSEGI PANJANG

1

TEKSFIELD

Tuliskan rumus luas persegi dan luas persegi panjang....

2

SINGLE CHOICE

Rumus yang benar untuk menghitung luas persegi adalah

3

CHEKCKBOXES(√)

Manakah pernyataan yang benar? (Pilih lebih dari satu)

- [ ] **Persegi memiliki 4 sisi yang sama panjang.**
- [ ] **Persegi panjang memiliki sisi yang tidak sejajar.**
- [ ] **Sudut persegi dan persegi panjang adalah siku-siku (90°)**
- [ ] **Luas bangun datar selalu dihitung dengan keliling x sisi.**

4

SELECT

Pilih bangun datar yang memiliki panjang dan lebar yang berbeda tetapi sudutnya te siku-siku!

- Persegi
- Segitiga
- Persegi panjang
- Jajar genjang

LIVEWORKSHEETS

LKPD

LUAS PERSEGI DAN PERSEGI PANJANG

WORD SEARCH

5

Temukan kata dibawah ini yang berhubungan dengan materi:

S	L	U	A	S	P	A	N
J	A	N	G	L	E	B	A
R	S	I	S	I	K	U	S

SPEAK

6

Lihatlah gambar bangun datar dibawah ini! Sebutkan nama bangun datar tersebut dan jelaskan bagaimana cara menghitung luasnya!

LISTENING

7

Dengarkan penjelasan guru tentangluas, lalu tuliskan contoh soal dan jawabannya bangun datar, dibawah ini!



LIVEWORKSHEETS

LKPD

LUAS PERSEGI DAN PERSEGI PANJANG

8 DRAG & DROP

Tarik rumus yang sesuai ke gambar bangun datar di sebelah kiri!







L = 8 x 3

L = 6 x 6

L = 5 x 5

9 JOIN

Buatlah garis ke jawaban yang benar!

	Rumus Luas
Persegi	L = ½xalasxtinggi
Persegi Panjang	L = sisi x sisi
Segitiga	L = panjang x lebar

LIVEWORKSHEETS