ESCOLA MUNICIPAL CONSELHEIRO JOSINO

LABORATÓRIO DE TECNOLOGIAS DIGITAIS

PROFª: ANDRÉA JARDIM

2º ANO DE ESCOLARIDADE

ALUNO (A):_____

1 - COMPLETE A SEQUÊNCIA DE NÚMEROS:

1				5					

2 - MARQUE UM X NA QUANTIDADE DE LÁPIS E BALAS:

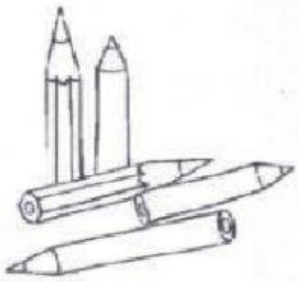

☐ 5
☐ 2
☐ 3
☐ 4

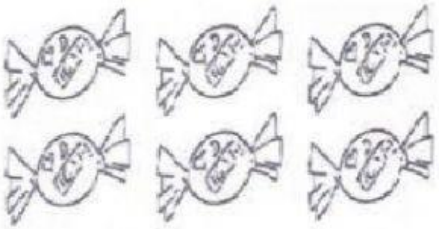

☐ 10
☐ 5
☐ 9
☐ 6

3 - FAÇA UM X NO CONJUNTO QUE POSSUI 8 ELEMENTOS:

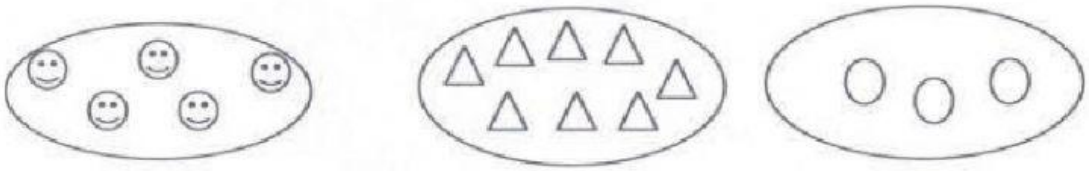

4 – MARQUE COM UM X O NÚMERO QUE ESTÁ OCULTO:

INICIO	1	2	3	4	5	◯	7	8	9	10	FIM

☐ 10 ☐ 6 ☐ 3 ☐ 7

LIVEWORKSHEETS