แบบทดสอบรายวิชา ว30221 เคมี1 บทที่ 3 พันธะเคมี

เรื่อง สัญลักษณ์แบบจุดของลิวอิสและกฎออกเตต

ชื่อ-นามสกุล.....ชั้น ม. 4/..... เลขที่.....คะแนน.....

ให้นักเรียนโยงเส้นจับคู่สูตรโครงสร้างแบบจุดของลิวอิส กับสูตรโครงสร้างแบบเส้นของสารต่อไปนี้



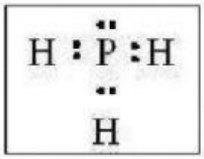

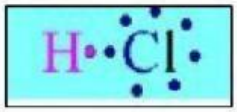

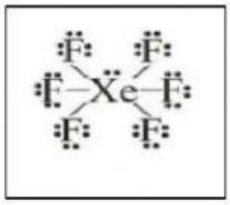

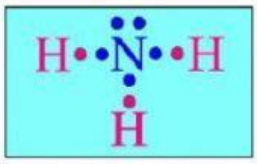

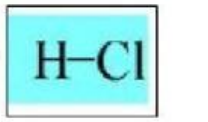

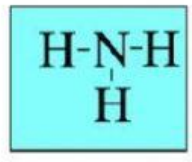

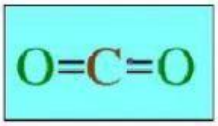

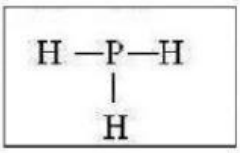

LIVEWORKSHEETS

LIVEWORKSHEETS