ชื่อ-นามสกุล.....ชั้น ม.1 ห้อง.....เลขที่.....

แบบฝึกหัด เรื่อง หน้าตัดของรูปเขาคณิตสามมิติ

<u>คำสั่ง</u> หน้าตัดที่เกิดจากการนำระนาบมาตัดรูปเรขาคณิตสามมิติที่กำหนดให้ต่อไปนี้เป็นรูปเรขาคณิตสองมิติชนิดใด

1. 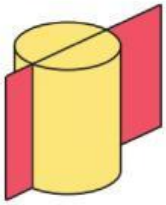	6. 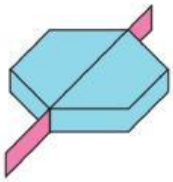 .....
2. 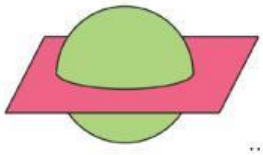	7. .....
3. 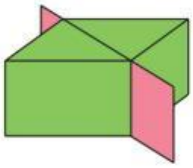	8. .....
4. 	9. 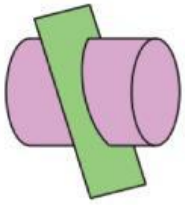 .....
5.	10. 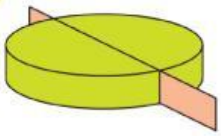 .....

LIVEWORKSHEETS