LKPD
Matematika

Tema: Bilangan

Nama: _____ Kelas: _____

LIVEWORKSHEETS

MENCARI BILANGAN

Temukan 8 bilangan dari tabel huruf berikut!

H	B	N	D	Y	P	H	C	B	E
S	A	T	U	P	U	U	M	U	M
A	D	E	A	A	N	I	E	A	P
K	U	J	I	N	G	T	I	G	A
D	E	U	D	D	U	K	A	D	T
B	D	D	E	L	A	P	A	N	T
N	G	Z	H	I	J	A	U	N	I
M	E	R	W	M	H	L	C	J	H
Y	J	E	N	A	M	I	T	A	M
F	O	T	U	J	U	H	J	T	O

- Satu
- Dua
- Tiga
- Empat
- Lima
- Enam
- Tujuh
- Delapan

LIVEWORKSHEETS

Penjumlahan

Jumlahkan angka yang ditunjukkan oleh jari-jari pada kedua tangan dan tuliskan jawabannya pada tempat yang tersedia.



LIVEWORKSHEETS

Penjumlahan

Temukan angka yang ditunjukkan kedua tangan?



- 6



- 7



- 8

- 9



- 10

LIVEWORKSHEETS

Penjumlahan

Temukan jeruk yang berisi angka hasil penjumlahan dengan cara menggeser dan menempelnya pada pohon!

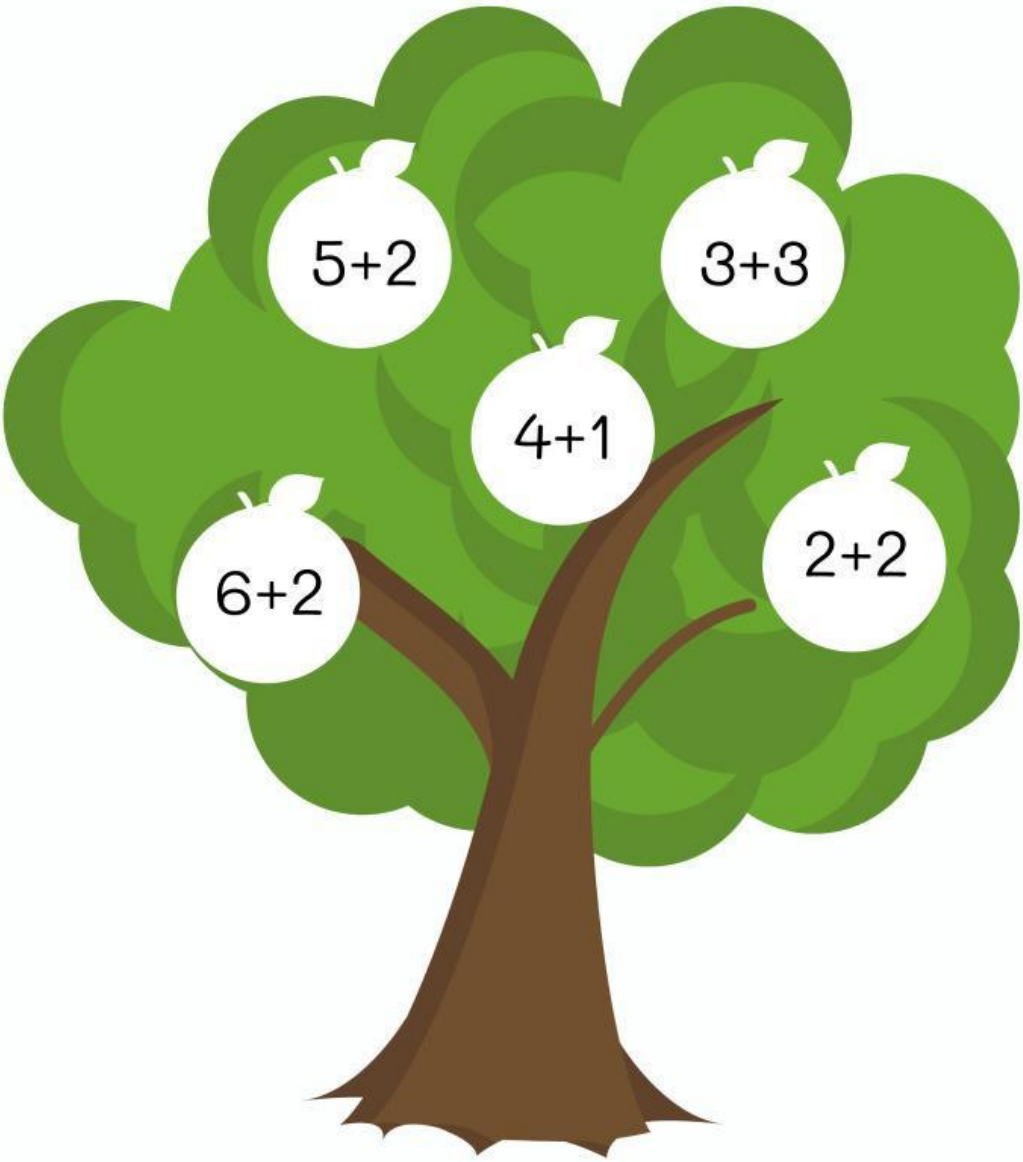

LIVEWORKSHEETS

Penjumlahan

Pilih kotak yang berisi hasil penjumlahan yang benar!

3 + 3	4	5	6
2 + 6	7	8	9
2 + 3	3	4	5
3 + 1	3	4	5
4 + 3	6	7	8
5 + 4	7	8	9

LIVEWORKSHEETS

Soal Cerita Matematika

Ayo, jawab soal cerita di bawah ini dengan tepat!



Tadi pagi Claudia membeli 2 buah apel merah dan 3 buah apel hijau. Jadi berapakah jumlah buah apel yang dibeli Claudia?

Daniel memiliki 3 buah jeruk dan 4 buah mangga. Jadi berapakah jumlah buah yang dimiliki Daniel?

Aaron mempunyai 3 buah lemon dan 5 buah anggur. Jadi berapakah jumlah buah yang dimiliki Aaron?

Sebastian memiliki 2 buah jambu air dan 4 buah melon. Jadi berapakah jumlah buah yang dimiliki sebastian?

Donna membeli 6 buah durian dan 3 buah pisang di pasar. Jadi berapakah jumlah buah yang dibeli Donna?

LIVEWORKSHEETS