MENGENAL NILAI TEMPAT BILANGAN

Tariklah Garis Sesuai Dengan Nilai Tempatnya

12	1 Puluhan + 2 Satuan
13	1 Puluhan + 8 Satuan
14	1 Puluhan + 5 Satuan
15	1 Puluhan + 7 Satuan
16	1 Puluhan + 4 Satuan
17	1 Puluhan + 6 Satuan
18	1 Puluhan + 3 Satuan
19	1 Puluhan + 9 Satuan

LIVEWORKSHEETS

Nama: ……..

Math drill

Isilah titik-titik berikut dengan jawaban yang benar!

Hitunglah jumlah gambar berikut!

1. 

2. 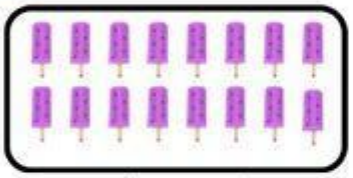

Isilah bilangan puluhan dan satuan berikut!

3. 13 = ... puluhan + ... satuan
4. 16 = ... puluhan + ... satuan
5. 19 = ... puluhan + ... satuan

Isilah dengan tanda <,>,= !

6. 12 15
7. 17 13
8. 16 16
9. 14 18
10. 11 10

Urutkan bilangan berikut dari yang terkecil!

11. 13 | 11 | 16 | 20 | 14 → ☐ ☐ ☐ ☐ ☐
12. 15 | 12 | 19 | 18 | 10 → ☐ ☐ ☐ ☐ ☐

Urutkan bilangan berikut dari yang terbesar!

13. 16 | 20 | 11 | 12 | 17 → ☐ ☐ ☐ ☐ ☐
14. 18 | 15 | 16 | 17 | 14 → ☐ ☐ ☐ ☐ ☐

Isilah urutan bilangan 11 - 20!

15. 11 | ☐ | ☐ | ☐ | ☐ | ☐ | ☐ | ☐ | ☐ | 20

LIVEWORKSHEETS

Nama:. ..... Kelas:. .....

Urutkanlah bilangan berikut mulai dari yang terkecil !

9 , 19 , 47 , 11, 28 ➡ ◯ ◯ ◯ ◯ ◯

56 , 4 , 22 , 13, 35 ➡ ◯ ◯ ◯ ◯ ◯

29 , 6 , 77 , 23, 11 ➡ ◯ ◯ ◯ ◯ ◯

22, 29 , 98 , 13 , 1 ➡ ◯ ◯ ◯ ◯ ◯

22 , 10 , 17 , 39 , 3 ➡ ◯ ◯ ◯ ◯ ◯

40 , 12 , 6 , 35 , 37 ➡ ◯ ◯ ◯ ◯ ◯

59 , 21 , 11 , 12 , 87 ➡ ◯ ◯ ◯ ◯ ◯

16 , 4 , 19 , 25 , 22 ➡ ◯ ◯ ◯ ◯ ◯

36 , 5 , 21 , 27 , 11 ➡ ◯ ◯ ◯ ◯ ◯

LIVEWORKSHEETS

Lembar Kerja Peserta Didik

Nama :

Kelas :

1.



- Ada _____ telur
- Ada _____ ayam
- Banyak telur ____ lebihnya dari banyaknya ayam

2.



- Ada _____ apel
- Ada _____ jeruk
- Banyak apel ____ kurangnya dari banyaknya jeruk

3.

- Ada _____ topi
- Ada _____ baju
- Banyak topi ____ kurangnya dari banyaknya ayam

4.

- Ada _____ jaket
- Ada _____ celana
- Banyak jaket ____ kurangnya dari banyaknya celana

5.

- Ada _____ semangka
- Ada _____ strawberry
- Banyak semangka ____ kurangnya dari banyaknya strawberry

6.

- Ada _____ kue
- Ada _____ permen
- Banyak kue ____ lebihnya dari banyaknya permen

7.

- Ada _____ bintang
- Ada _____ matahari
- Banyak bintang ____ kurangnya dari banyaknya matahari

Nilai

LIVEWORKSHEETS