Nama : _____

Kelas : _____

Latihan Matematika Kelas IV

By: Umi Mega

---

1. 12 + 3 x 8 = _____

2. 27 : 9 + 10 = _____

3. 15 + 7 x 3 + 1 = _____

4. 

   Luas bangun yang diarsir adalah _____ satuan.

5. 1 bak mandi = 7 ember. Jika bak dituangkan oleh 28 ember, banyak bak ? ___

6.

   Nama Lain bangun datar di samping adalah ____

7. 46, 41, 36, 31, _____ , _____

8. 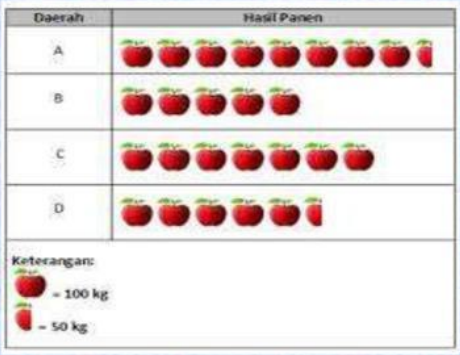

   - Jumlah panen pada daetah B? _____
   - Selisih panen daerah C dan D? ___
   - Hasil panen 550 terdapat pada daerah? ____

9. 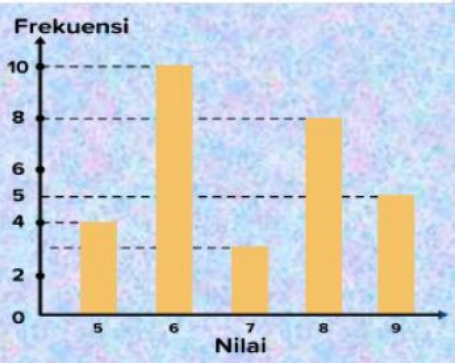

   - Siswa yang mendapatakan nilai 7 ? __
   - Nilai tertinggi yang diperoleh siswa? ___
   - Nilai yang paling banyak diperoleh siswa? ____

LIVEWORKSHEETS

10.

	x		=	15		
x		x				=
9		8	:		=	2
=		=				x
		24	:	6	=	

LIVEWORKSHEETS