امتحان تجريبي

الاسم:..... **الصف:.....**

اختر الإجابة الصحيحة

1-ناتج ما يلي:

= ٣× ٢ + ٥

١٠ ١١ ١٣ ٢١

2- نوع الزاوية في الشكل المقابل

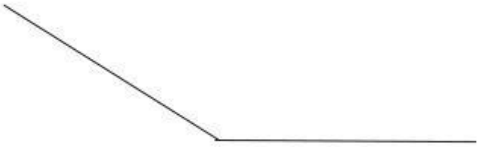

زاوية حادة زاوية قائمة زاوية منفرجة زاوية مستقيمة

3- ما هو نوع المثلث المقابل بالنسبه لزواياه

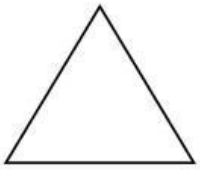

متطابق الأضلاع قائم الزاوية منفرج الزاوية حاد الزوايا

4- انظر إلى العقد

الكسر الذي يمثل عدد الخرز الحمراء

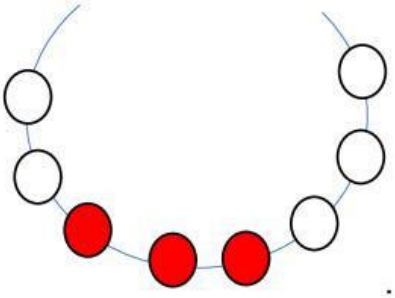

$\frac{٣}{٥}$ $\frac{٣}{٨}$ $\frac{٥}{٨}$ $\frac{٥}{٣}$

صل كل كسر من العمود الأول بالقيمة المكافئة له في العمود الثاني:

$\frac{٣}{١٠}$	٪٥٠
$\frac{٧٧}{١٠٠}$	٪٣٠
$\frac{١}{٢}$	٠,٦٢
$\frac{١}{٥}$	٪٢٠
$\frac{٦٢}{١٠٠}$	٠,٧٧

LIVEWORKSHEETS