1) Přiřaď fotografie ke schematickému znázornění krajiny. Pojmenuj jednotlivé typy krajiny a uveď, jaký je rozdíl výšek pro daný typ krajiny.

A.



a) .....

B.



b) .....

C.



c) .....

D.



d) .....

E.



e) .....

2) Označ správná a chybná tvrzení.

Tvrzení	Ano	Ne
a) V rovinách mají řeky velký spád.		
b) V rovinách žije obvykle málo lidí, obtížně se zde stavějí obydlí a silnice.		
c) Hornatiny jsou nejčastějším typem krajiny v České republice.		
d) Pahorkatiny jsou krajiny s výškovým rozdílem do 300 m.		
e) Velehornatina je krajina, kde je výškový rozdíl nad 600 m.		

LIVEWORKSHEETS

3) Popiš jednotlivé části dna

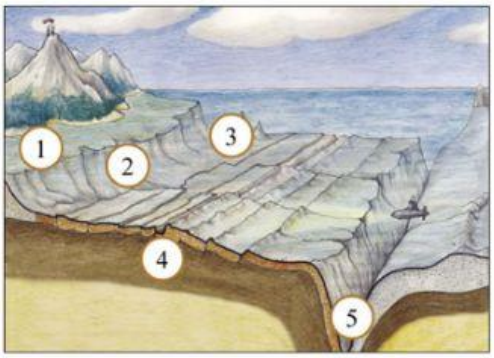

1 .....

2 .....

3 .....

4 .....

5 .....

4) Doplň

Pevninský šelf je část ..... zatopená vodou, která pozvolna klesá do hloubky až ..... metrů. Je tvořen ..... Jde o oblast, ve které žijí drobní mořští živočichové. V této části oceánského dna se také těží ..... Pevninský svah je tvořený ..... kůrou. Navazuje na .... Prudce se svažuje až do hloubky ..... metrů. Oceánské pánve jsou rozlehlé sníženiny, pokryté mořskými ..... Vyplňují většinu plochy oceánského dna a jsou již tvořeny .... Středooceánské ..... tvoří dlouhá podmořská pohoří, která se táhnou napříč ..... Vznikají v místech, kde se dvě oceánské litosférické desky od sebe ..... Hlubokooceánské příkopy jsou hluboké protáhlé ....., zařízlé do ..... dna. Nejhlubší příkop se nazývá .... a najdeme ho v ..... oceánu.

LIVEWORKSHEETS